2014학년도 11월 고2 전국연합학력평가 문제지

사회탐구 영역(세계지리)

제 4 교시 | 성명 | 수험번호 2

1. (가), (나) 세계 지도에 대한 설명으로 옳은 것은?

(가)

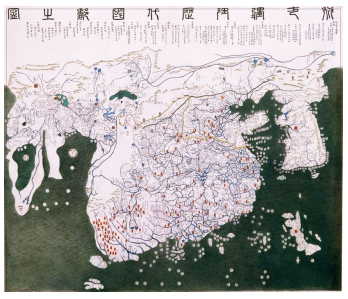

(나)

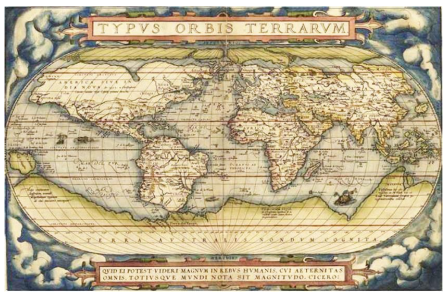

① (가)는 경선과 위선의 개념을 사용하여 제작되었다.
② (나)는 중화사상을 반영하고 있다.
③ (가)는 (나)보다 지도의 제작 시기가 늦다.
④ (나)는 (가)보다 지도에 표현된 공간적 범위가 넓다.
⑤ (가), (나) 모두 지도의 위쪽이 남쪽이다.

2. 지도에 표현된 국제 인구 이동의 공통적 원인으로 가장 적절한 것은?

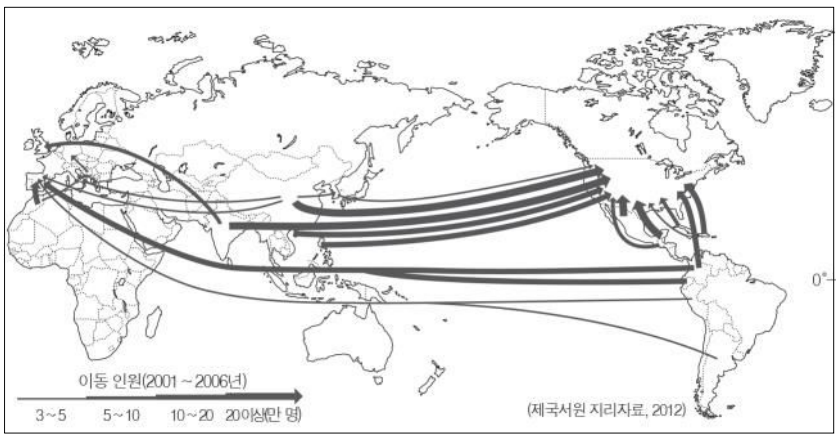

① 직장을 은퇴한 고령 인구의 이민
② 정치적 불안정으로 인한 지역 갈등
③ 종교 탄압으로 인한 신앙의 자유 획득
④ 겨울철 따뜻한 휴양지를 찾기 위한 관광
⑤ 새로운 일자리를 찾기 위한 경제적 이유

3. 지도의 A, B 공업 지역에 대한 설명으로 옳지 않은 것은? [3점]

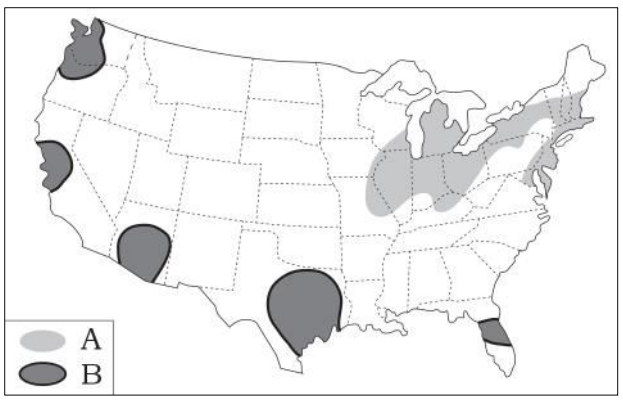

① A는 풍부한 지하자원과 큰 소비 시장을 바탕으로 발달하였다.
② B는 쾌적한 기후 환경이 공업 지역 발달에 영향을 주었다.
③ A는 B보다 공업 집적에 따른 불이익이 크게 나타났다.
④ B는 A보다 공업 발달의 역사가 길다.
⑤ B는 A보다 고부가가치 산업의 비중이 높다.

4. 자료는 브라질의 유네스코 세계 유산 중 역사지구에 대한 것이다. 이들 지구가 형성된 공통적 배경을 <보기>에서 고른 것은?

브라질의 역사지구는 16~18세기에 항구나 광산 지역을 중심으로 도시 계획에 의해 만들어진 지역이다. 당시 인근에서 생산된 자원이나 농산물을 바탕으로 경제적 번영을 이루었으며 고풍스런 유럽식 건축물, 광장, 교회(성당) 등이 잘 보존되어 있다. 또한 강제로 끌려와 힘겹게 일했던 농업 노동자나 광산 노동자들의 발자취도 남아 있어 세계 유산에 등재되었다.

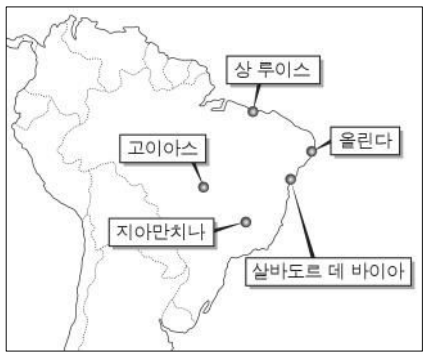

〈보 기〉

ㄱ. 유럽 국가의 식민 지배
ㄴ. 아시아에서 농업 이민 급증
ㄷ. 아프리카에서 흑인 노예 유입
ㄹ. 북아메리카에서 대자본과 건축 기술 유입

① ㄱ, ㄴ ② ㄱ, ㄷ ③ ㄴ, ㄷ
④ ㄴ, ㄹ ⑤ ㄷ, ㄹ

5. 자료는 어느 방송 프로그램 내용의 일부이다. (가) 지형의 형성 원인으로 옳은 것은? [3점]

TV 미술관 - 아름다운 지형을 화폭에 담은 한스 달

기획 의도	미술 작품을 통한 유럽의 자연 환경 소개
방송 일자	2014년 ○월 ◇◇일
내레이션	한스 달(Hans Dahl)은 노르웨이 서부 해안에서 나타나는 (가) 의 풍경을 담은 작품을 다수 그린 것으로 유명합니다. 바다가 내륙 깊숙한 곳까지 들어와 가파른 절벽 사이를 유유히 흐르고 있고, 여유롭게 노를 젓고 있는 연인의 모습은 (가) 의 풍경을 더욱 아름답게 만들고 있습니다.

<한스 달의 대표 작품>

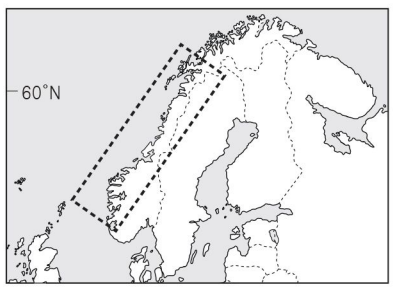

<작품 속 배경 지역>

① 지반의 융기 ② 해수면의 상승
③ 바람에 의한 퇴적 ④ 조류에 의한 퇴적
⑤ 파랑에 의한 침식

6. 자료는 어떤 화산 활동에 대한 것이다. ㉠ ~ ㉤에 대한 설명으로 옳지 않은 것은? [3점]

화산 폭발 전·후 산 정상과 주변 숲 경관 비교



오전부터 9시간 동안 계속된 폭발 과정에서 대량으로 분출된 ㉢ 화산재는 ㉣ 동쪽 내륙 지역으로 확산되었다. 이로 인해 화산 주변 지역은 낮인데도 불구하고 ㉤ 햇빛이 차단되어 밤처럼 어두웠다고 한다.

화산재 확산 분포 지역

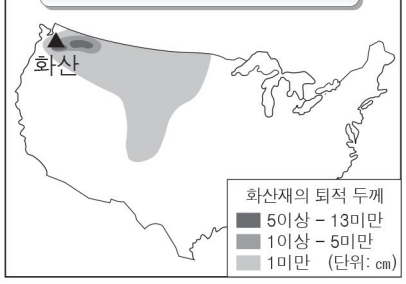

① ㉠ – 화산 활동 이후 함몰된 모습이다.
② ㉡ – 화산재에 비해 비교적 이동 속도가 빨라 피해 지역이 넓다.
③ ㉢ – 항공기 운항에 장애를 발생시키기도 한다.
④ ㉣ – 폭발 당시 바람의 방향이 화산재 이동에 영향을 주었다.
⑤ ㉤ – 일조량이 감소하여 농작물에 피해를 준다.

7. 자료는 오스트레일리아 여행에 대한 기록의 일부이다. ㉠ ~ ㉤ 중 옳지 않은 것은? [3점]

<오스트레일리아의 청정한 대자연 속으로>

⊙ 기간: 1월 12일~18일(7일간)

⊙ 준비사항
- 왕복 항공편 및 숙소 예약
- 관광 상품 검색 및 예약

⊙ 메모
- 1일차: 시드니에 도착하자마자 여름옷으로 갈아입고 오페라 하우스를 구경하러 갔다. ---------- ㉠
- 2일차: 버스를 타고 A로 이동해 넓은 초원에서 양을 만져보고 털을 깎는 체험을 했다. ---------- ㉡
- 4일차: 사막이 펼쳐진 B에서 큰 바위산을 보고, 수많은 별을 보며 텐트에서 하룻밤을 묵었다. ---------- ㉢
- 5일차: 북부 지역인 C에 도착하니 날씨가 쌀쌀했고, 단풍이 물든 숲을 산책하며 사진을 찍었다. ---------- ㉣
- 6일차: D 해안에서 배를 타고 바다로 나가 스노클링을 하면서 아름다운 산호초를 구경하였다. ---------- ㉤

① ㉠ ② ㉡ ③ ㉢ ④ ㉣ ⑤ ㉤

8. 다음은 스웨덴의 하지 축제에 대한 설명이다. 이 지역에서 나타나는 연중 낮과 밤의 길이 변화를 옳게 표현한 것은? [3점]

하지를 전후로 3일 동안 개최되는 스웨덴의 하지 축제는 전 국민이 참여하는 큰 행사이다. 이 지역은 고위도에 위치해 겨울이 길고, 편서풍을 타고 구름이 자주 밀려와 흐린 날이 많다. 그러나 하지가 되면 해가 오전 2시에 떠서 밤 10시까지 지지 않기 때문에 축제 참가자들은 여름 햇볕을 마음껏 즐길 수 있다.

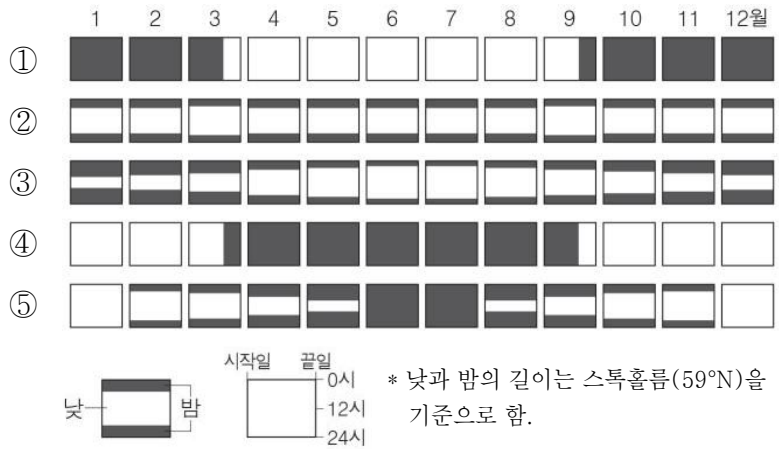

9. 자료의 (가) 나무가 주로 분포하는 지역의 기후 특성으로 옳은 것은?


(가) 나무

이 나무의 잎은 작고 단단하며, 줄기는 코르크층이 발달해 있다. 이유는 부족한 수분의 증발을 막기 위함이며 같은 이유로 뿌리는 땅 속 깊숙이 뻗어 있다. 열매는 기름을 짜거나 절여서 식용으로 사용하며 인근에는 포도 및 오렌지를 재배하는 과수원이 넓게 분포한다.

① 계절풍의 영향이 강하다.
② 연중 기온이 높고 강수량이 많다.
③ 여름철 강한 일사에 의해 스콜 현상이 잦다.
④ 따뜻한 해류의 영향으로 강수가 연중 고르다.
⑤ 여름은 고온 건조하고 겨울은 온난 습윤하다.

10. 그림은 아프리카를 여행하며 스케치한 것이다. (가) ~ (다)에 해당하는 지역을 지도의 A ~ C에서 고른 것은? [3점]

(가) (나) (다)

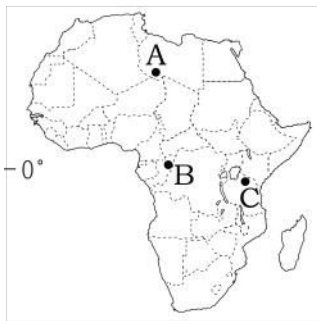

	(가)	(나)	(다)
①	A	B	C
②	B	A	C
③	B	C	A
④	C	A	B
⑤	C	B	A

11. 다음 글의 ㉠ ~ ㉤에 대한 설명으로 옳지 않은 것은?

> 영국에 사는 제임스는 TV를 구입하기 위해 ㉠국내 및 해외 인터넷 쇼핑몰 이곳저곳을 돌아다니며 제품의 성능과 가격, 배송비, 관세 등을 비교해 보았다. 결국 ㉡미국에서 운영되는 인터넷 쇼핑몰에서 구입하기로 최종 결정하여 배송지 정보를 입력하고 ㉢신용카드로 결제하면서 구매를 마쳤다. 배송 과정을 살펴보니 쇼핑몰 업체가 ㉣해외 배송 대행업체의 물류센터로 TV를 보내면, 다시 이 업체가 ㉤항공 특송으로 국내 배송 업체로 보내서 제임스가 TV를 받는데 까지 10일 정도 걸린다고 한다.

① ㉠ – 교통과 통신의 발달로 점차 성장해왔다.
② ㉡ – 제품 구입 시 공간적 제약이 증가하였다.
③ ㉢ – 전자 상거래를 활성화하는 데 기여하였다.
④ ㉣ – 국제 공항이나 항구 근처에 주로 입지한다.
⑤ ㉤ – 국제 전자 상거래가 늘어나면서 증가하였다.

12. 자료는 (가) 문화 지역의 특성을 나타낸 것이다. 이 문화 지역을 지도의 A ~ E에서 고른 것은?

종교	개신교 신도 비율이 높음	백인, 흑인, 히스패닉, 아시안 등 인종 복합	인종(민족)
언어	공용어로 영어를 사용함	대규모 기업적 농목업이 행해짐	농목업

(가)

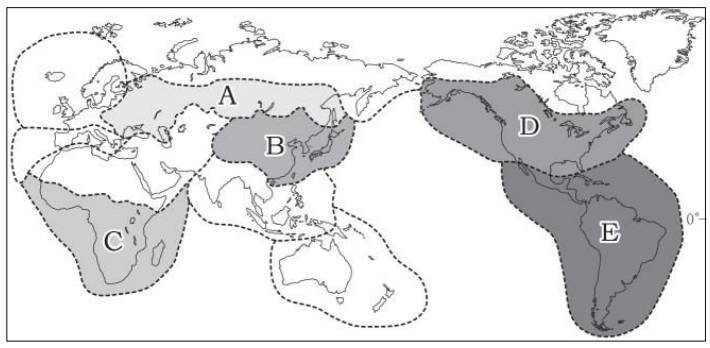

① A ② B ③ C ④ D ⑤ E

13. 지도는 세계의 주요 도시를 평가 지수에 따라 분류한 것이다. (나)와 비교한 (가)의 특성으로 옳은 것은? [3점]

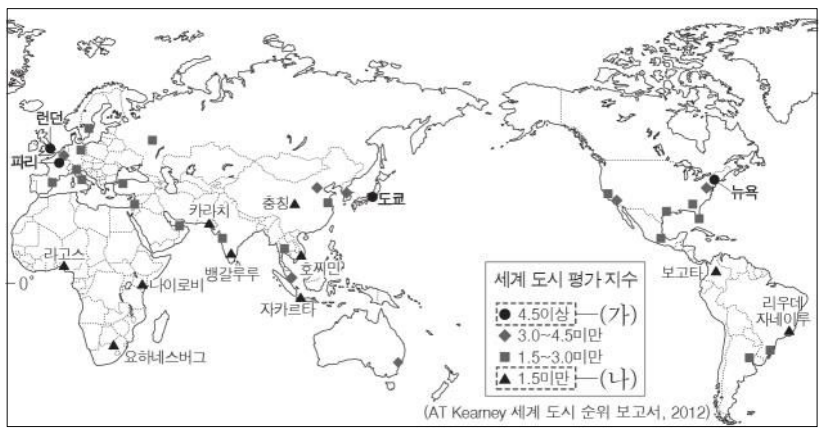

* 세계 도시 평가 지수는 비즈니스 활동, 인적 자원, 정보망, 문화 자원, 정치적 참여도를 종합 평가한 수치임.

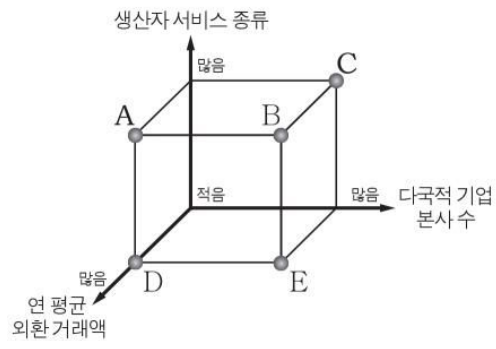

① A
② B
③ C
④ D
⑤ E

14. 신문기사의 (가) 종교와 관련된 경관을 <보기>에서 고른 것은?

> **물 한 모금 마시지 않고 경기를 치른 알제리 대표팀**
>
> 2014년 브라질 월드컵 16강전에서 독일과 알제리가 맞붙었다. 모든 선수들이 [(가)]를 믿는 알제리 대표팀은 라마단 기간이라 음식과 물을 먹지 않고 경기를 치렀다. 또한 선수와 스태프의 방에 코란을 비치해 달라고 숙소 측에 요청했다고 한다.
>
> 상대팀인 독일을 비롯해 프랑스, 벨기에, 스위스 대표팀에도 [(가)]를 믿는 선수들이 포함되어 있었고, 일부 선수는 금식에 참여했다고 한다. – 2014. 7. 1. ○○신문 –

〈보 기〉

ㄱ.

ㄴ.

ㄷ.

ㄹ.

① ㄱ, ㄴ ② ㄱ, ㄷ ③ ㄴ, ㄷ
④ ㄴ, ㄹ ⑤ ㄷ, ㄹ

15. 자료는 A ~ D 지역의 최한월 평균 기온과 연 강수량을 나타낸 것이다. 각 지역의 기후에 대한 옳은 설명을 <보기>에서 고른 것은? [3점]

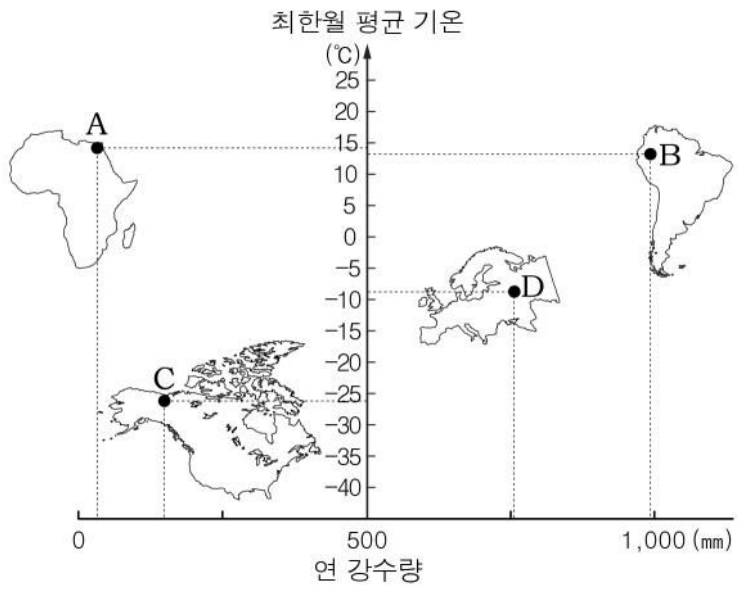

〈보 기〉

ㄱ. A는 강수량의 계절적 차이가 뚜렷한 온대 기후이다.
ㄴ. B는 연중 봄과 같은 날씨가 계속되는 고산 기후이다.
ㄷ. C는 영구 동토층이 나타나는 한대 기후이다.
ㄹ. D는 연중 습윤하여 열대 우림이 나타나는 열대 기후이다.

① ㄱ, ㄴ ② ㄱ, ㄷ ③ ㄴ, ㄷ
④ ㄴ, ㄹ ⑤ ㄷ, ㄹ

16. 지도는 어느 다국적 기업의 해외 생산 현황을 나타낸 것이다. 이러한 분포가 나타나게 된 배경을 <보기>에서 고른 것은?

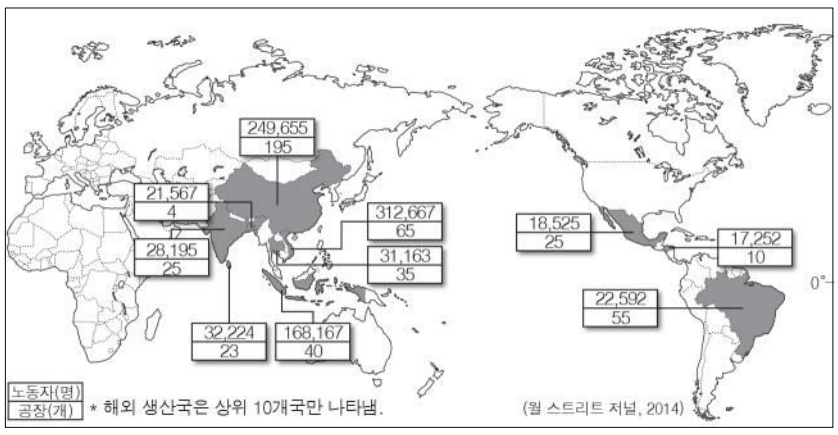

〈보 기〉

ㄱ. 소비 시장의 확대　　ㄴ. 저렴한 노동력의 확보
ㄷ. 연구 개발 시설의 확보　　ㄹ. 첨단 기술 정보의 획득

① ㄱ, ㄴ　② ㄱ, ㄷ　③ ㄴ, ㄷ
④ ㄴ, ㄹ　⑤ ㄷ, ㄹ

17. 자료는 오스트레일리아에서 수출되는 어떤 에너지 자원에 대한 것이다. 이 자원에 대한 설명으로 옳은 것은?

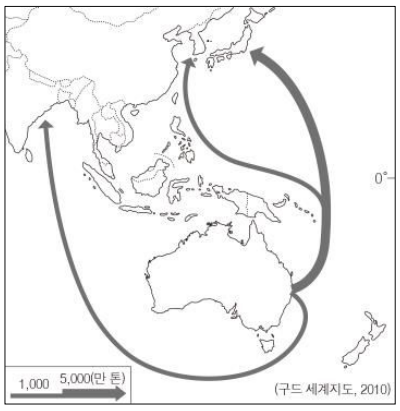

<오스트레일리아의 수출 현황>

이 자원은 오스트레일리아의 고기 습곡 산지인 그레이트디바이딩 산맥이 분포하는 동부 지역에서 대부분 생산된다. 오스트레일리아는 공업 발달이 미약하기 때문에 이 자원의 생산 대비 수출 비율이 높고, 철강 산업이 발달한 한국, 일본, 인도 등으로 주로 수출하고 있다.

① 주로 수송용 연료로 사용된다.
② 세계 1차 에너지 중 소비 비중이 가장 높다.
③ 산업혁명 시기에 주요 에너지원으로 사용되었다.
④ 냉동 액화 기술의 발달로 소비량이 크게 증가하였다.
⑤ 연소 시 대기 오염 물질 배출이 적은 청정한 자원이다.

18. 그래프는 국가별 1인당 GNI와 출생률을 나타낸 것이다. A 국가에 비해 B 국가의 수치가 높게 나타나는 지표로 옳은 것은?

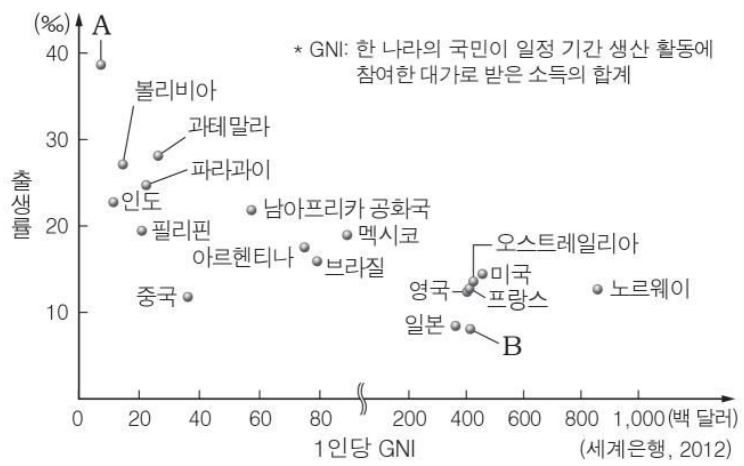

① 고령화 지수　② 유아 사망률
③ 합계 출산율　④ 유소년 인구 부양비
⑤ 인구의 자연 증가율

19. 그림은 빙하 지형의 모식도이다. A ~ C에 대한 옳은 설명을 <보기>에서 고른 것은? [3점]

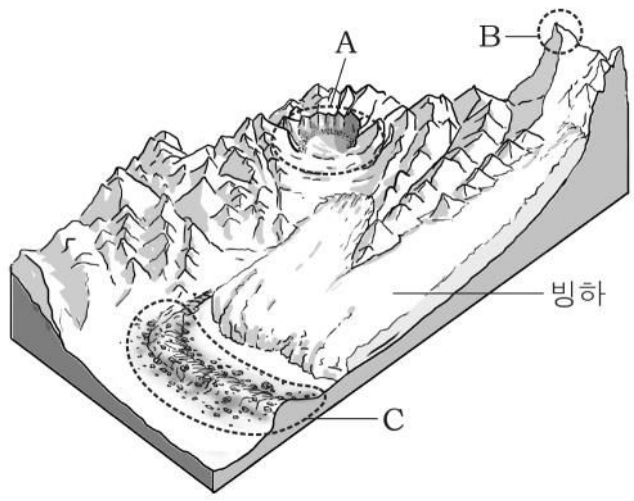

〈보 기〉

ㄱ. A는 주로 화학적 풍화 작용으로 형성되었다.
ㄴ. B는 혼(horn)으로 뾰족한 산정부의 모습이다.
ㄷ. C를 통해 빙기 때 빙하의 확장 범위를 알 수 있다.
ㄹ. A ~ C 모두 빙하의 침식 작용으로 형성되었다.

① ㄱ, ㄴ　② ㄱ, ㄷ　③ ㄴ, ㄷ
④ ㄴ, ㄹ　⑤ ㄷ, ㄹ

20. 그래프는 주요 식량 자원의 국가별 생산 비율을 나타낸 것이다. (가), (나)에 대한 설명으로 옳은 것은? (단, (가), (나)는 쌀, 밀, 옥수수 중 하나임.) [3점]

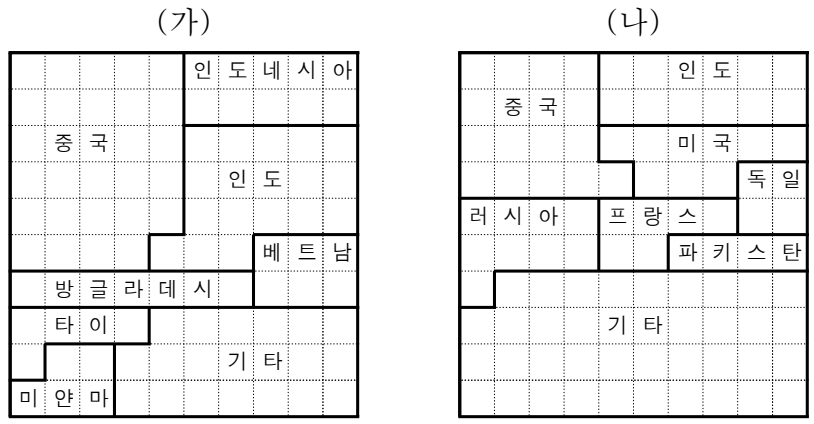

* 생산 비율은 소수점 첫째 자리에서 반올림한 수치이며, 방안 1칸은 1%를 나타냄.
(세계 각국 요람, 2010)

① (가)는 바이오 에너지 원료로 사용되면서 수요가 급증하였다.
② (나)는 사료용 작물로 주로 이용된다.
③ (가)는 (나)보다 내한성이 크다.
④ (나)는 (가)보다 국제 이동량이 많다.
⑤ (나)는 (가)보다 인구 부양력이 높다.

※ 확인사항
문제지와 답안지의 해당란을 정확히 기입(표기)했는지 확인하시오.