2011학년도 11월 고2 전국연합학력평가 문제지

사회탐구 영역 (한국지리)

제 4 교시 | 성명 | | 수험번호 | | | | | | 2 | | | | |

○ 자신이 선택한 과목의 문제지인지 확인하시오.
○ 문제지의 해당란에 성명과 수험번호를 정확히 기입하시오.
○ 답안지의 해당란에 성명과 수험번호를 쓰고, 또 수험번호와 답을 정확히 표시하시오.
○ 선택한 과목 순서대로 문제를 풀고, 답은 답안지의 '제1선택'란부터 차례대로 표시하시오.
○ 문항에 따라 배점이 다르니, 각 물음의 끝에 표시된 배점을 참고하시오. 3점 문항에만 점수가 표시되어 있습니다. 점수 표시가 없는 문항은 모두 2점씩입니다.

1. (가), (나) 현상이 나타나는 이유를 <보기>에서 골라 바르게 짝지은 것은? [3점]

> ○ 지구는 자전하기 때문에 지역마다 시차가 발생하며, 영국을 기준으로 한 약속된 시간 체계를 사용한다. 예를 들어 (가) 우리나라는 뉴욕보다 14시간 빨리 하루가 시작된다.
> ○ 서쪽에서 다가와 동진하는 이동성 고기압과 저기압은 특히 우리나라의 봄·가을철 날씨 변화를 가져온다. 이는 (나) 우리나라의 상공에 서풍이 불기 때문이다.

〈 보 기 〉
ㄱ. 중위도에 위치한다.
ㄴ. 대륙의 동안에 위치한다.
ㄷ. 삼면이 바다로 둘러싸인 반도국이다.
ㄹ. 표준 경선으로 동경 135°를 사용한다.

	(가)	(나)		(가)	(나)
①	ㄱ	ㄴ	②	ㄱ	ㄷ
③	ㄴ	ㄹ	④	ㄹ	ㄱ
⑤	ㄹ	ㄷ			

2. 그래프는 (가) ~ (다) 지역의 계절별 강수 비율과 연강수량을 나타낸 것이다. 이에 해당하는 지역을 바르게 짝지은 것은?

<계절별 강수 비율>

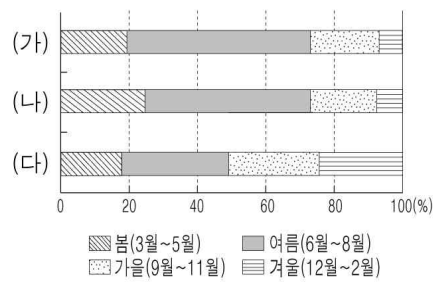

<연강수량>

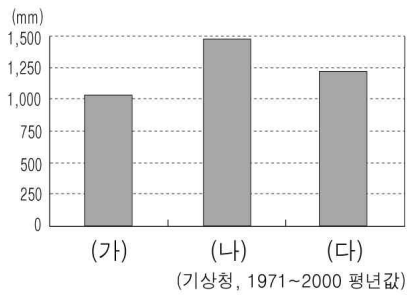

	(가)	(나)	(다)		(가)	(나)	(다)
①	대구	부산	울릉	②	대구	울릉	부산
③	부산	대구	울릉	④	울릉	대구	부산
⑤	울릉	부산	대구				

3. 그림은 날씨 예보의 한 장면이다. (가)에 해당하는 현상에 대한 설명으로 옳은 것은?

① 기온이 상승하면서 현상이 점차 심해진다.
② 대기가 불안정한 경우 발생 가능성이 높다.
③ 일교차가 큰 계절에 발생 빈도가 높아진다.
④ 바람이 많이 부는 경우 더욱 오래 지속된다.
⑤ 인공호수가 조성되면 발생 일수가 줄어든다.

4. 그래프는 (가) ~ (다) 지역의 기후값 편차를 나타낸 것이다. 각 지역을 지도의 A ~ C에서 골라 바르게 짝지은 것은? [3점]

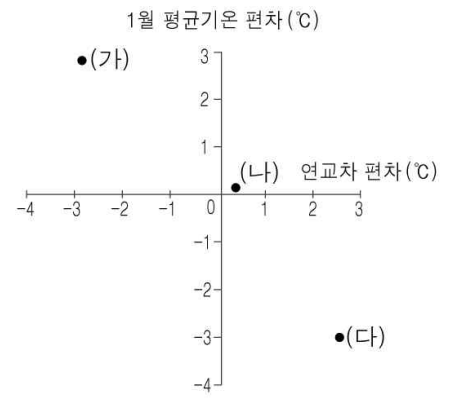

*기후값 편차 = 각 지역 기후값 - 세 지역의 평균 기후값

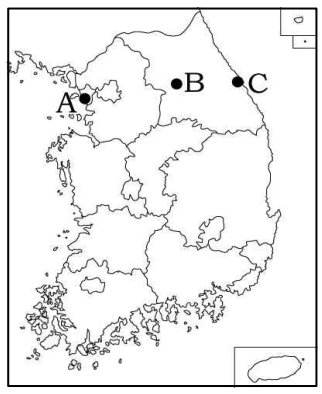

	(가)	(나)	(다)		(가)	(나)	(다)
①	A	B	C	②	A	C	B
③	B	C	A	④	C	A	B
⑤	C	B	A				

5. 지도는 한반도 지체 구조의 일부를 나타낸 것이다. A, B에 대한 설명으로 옳은 것은? [3점]

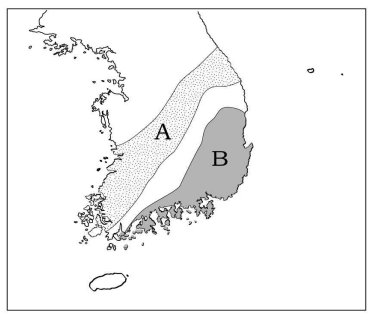

① A는 화산 활동으로 형성되었다.
② B는 석회석의 주요 분포지이다.
③ B는 바다에서 퇴적된 해성층이다.
④ A는 B보다 형성 시기가 전반적으로 늦다.
⑤ B는 A보다 공룡 발자국 화석이 많이 발견된다.

6. (가), (나) 지형도를 읽은 내용으로 옳은 것은? [3점]

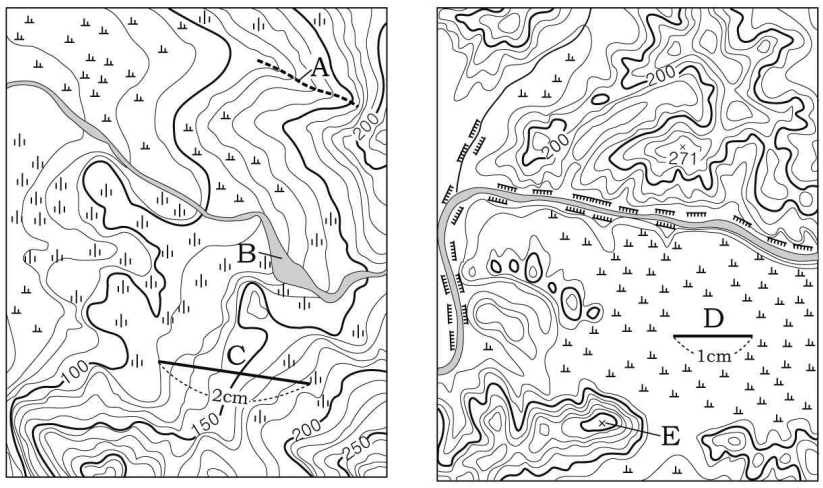

(가) (나)

① A 구간은 능선에 해당한다.
② B 하천은 남동 방향으로 흐른다.
③ E 지점의 해발고도는 250m이다.
④ D는 C보다 실제 거리가 더 길다.
⑤ (나)의 하천 양안에는 절벽이 나타난다.

7. 다음은 하천 퇴적 지형에 관한 것이다. ㉠ ~ ㉤에 대한 설명으로 옳은 것은?

> 골짜기의 입구인 ㉠ 경사 급변점에서 형성되는 ㉡ 이 지형은 주로 ㉢ 세 부분으로 구분된다. 이 지형의 상부는 계곡 물을 이용하여 소규모 취락이 입지하고 농경이 이루어진다. ㉣ 중앙부는 주로 밭과 과수원으로 이용되고, 말단은 ㉤ 용천대가 분포하여 마을이 입지하고 논농사가 이루어진다.

① ㉠ – 유속이 감소하는 지점에 해당한다.
② ㉡ – 주로 구릉성 산지가 많은 지역에 발달한다.
③ ㉢ – 구하도, 자연제방, 배후습지로 구분된다.
④ ㉣ – 퇴적층이 얇고 지표수가 풍부하다.
⑤ ㉤ – 현무암의 특성이 반영되어 형성된다.

8. 사진은 지도의 표시된 지역에서 촬영한 것이다. (가), (나)의 평탄한 지형에 대한 옳은 설명을 <보기>에서 고른 것은? [3점]

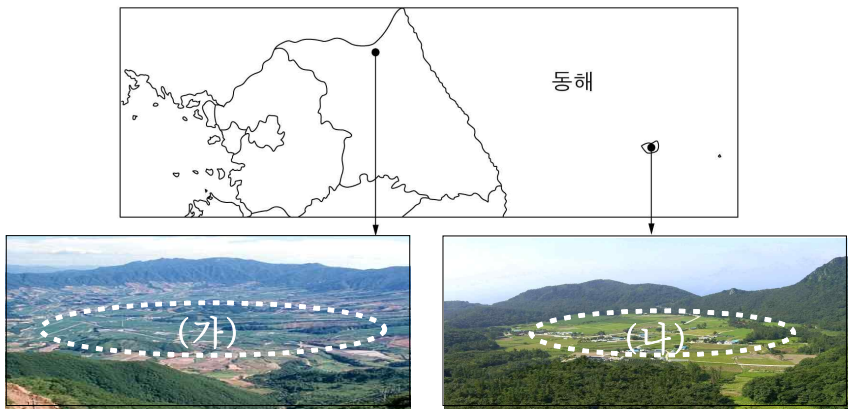

〈 보 기 〉

ㄱ. (가)는 암석의 차별 침식에 의해 형성된다.
ㄴ. (나)는 외륜산에 둘러싸인 칼데라 분지이다.
ㄷ. (가), (나)에는 주로 간대토양이 분포한다.
ㄹ. (나)는 (가)보다 기반암의 형성 시기가 빠르다.

① ㄱ, ㄴ ② ㄱ, ㄷ ③ ㄴ, ㄷ
④ ㄴ, ㄹ ⑤ ㄷ, ㄹ

9. 그래프는 강원과 제주의 신 · 재생 에너지 생산량 비중을 나타낸 것이다. (가), (나) 에너지원의 특징으로 옳지 않은 것은?

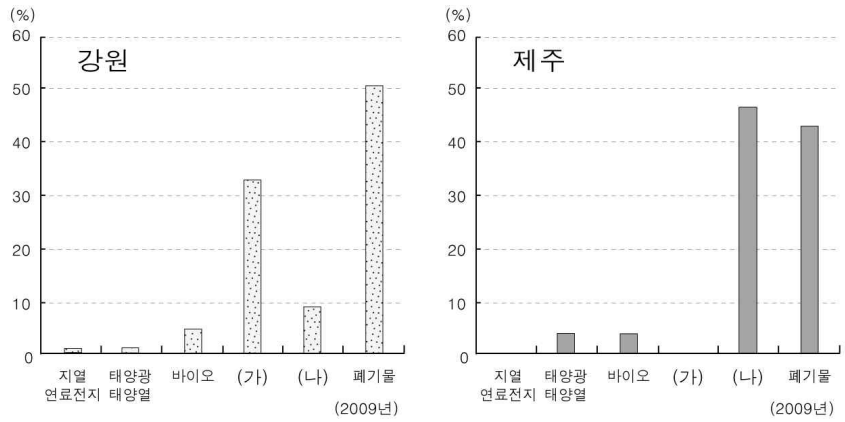

① (가)는 주로 하천 중 · 상류 지역에서 생산된다.
② (나)의 생산은 바닷물의 유속이 빠른 지역에서 유리하다.
③ (가)는 (나)보다 에너지 생산량이 많다.
④ (가)와 (나)는 기상 변화에 따라 생산량이 달라진다.
⑤ (가)와 (나)는 대기 오염을 줄이는 데 기여할 수 있다.

10. 그래프는 1차 에너지 소비 구조를 나타낸 것이다. A ~ C에 대한 설명으로 옳은 것은? [3점]

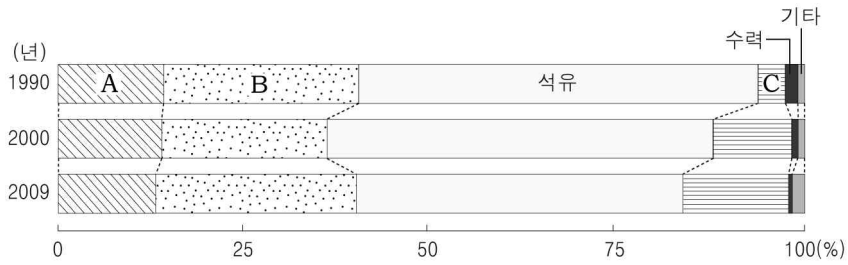

① A는 수요의 감소로 국내 자원 생산량이 급감했다.
② A는 C보다 전력 생산을 위한 연료비가 싸다.
③ B는 C보다 가정용 소비 비중이 높다.
④ A와 B는 화력 발전의 연료로 사용된다.
⑤ B와 C는 전량 해외 수입에 의존한다.

11. 그래프는 A ~ C 제조업의 연도별 수출액과 수입액 변화를 나타낸 것이다. 이에 해당하는 제조업을 바르게 짝지은 것은? [3점]

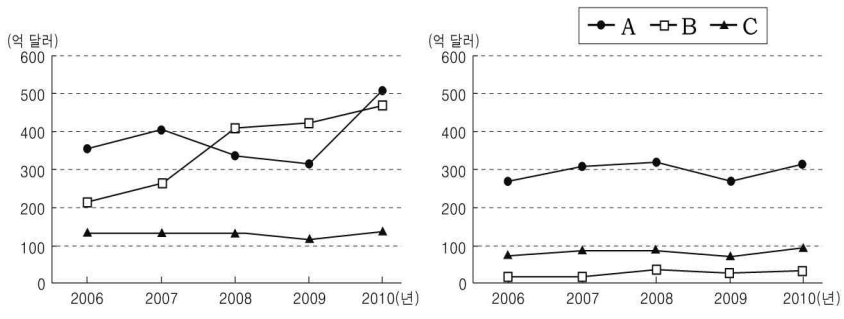

<수출액> <수입액>

	A	B	C
①	조선	반도체	섬유 · 의류
②	조선	섬유 · 의류	반도체
③	반도체	조선	섬유 · 의류
④	반도체	섬유 · 의류	조선
⑤	섬유 · 의류	반도체	조선

12. 그림은 공업 단원에 관한 수업 장면이다. 이에 해당하는 지역을 지도의 A ~ E에서 찾은 것은?

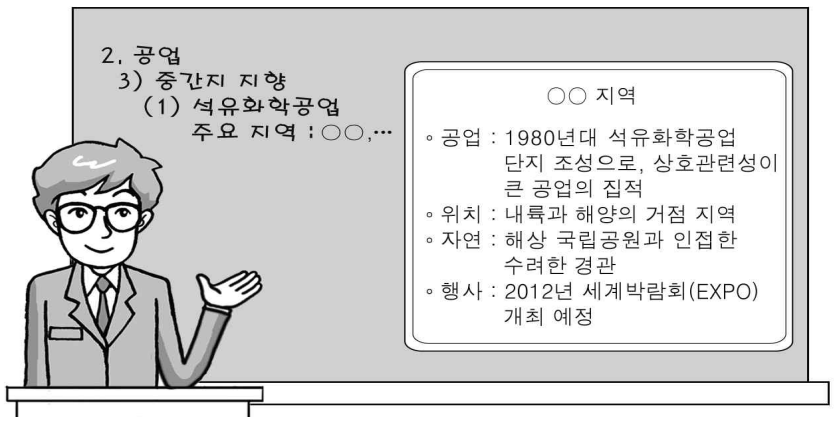

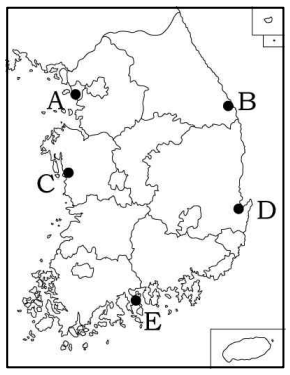

① A
② B
③ C
④ D
⑤ E

13. 그래프는 서로 다른 교통 수단의 국내 및 국제 여객 수송 비율을 나타낸 것이다. (가)에 대한 (나)의 상대적 특성으로 옳은 것을 <보기>에서 고른 것은?

(가) (나)



* 수송 비율은 수송 인원 기준 (통계청, 2008)

〈 보 기 〉
ㄱ. 기종점 비용이 저렴하다.
ㄴ. 평균 운행 속도가 빠르다.
ㄷ. 단위 거리당 운송비가 높다.
ㄹ. 대량 화물의 장거리 수송에 유리하다.

① ㄱ, ㄴ ② ㄱ, ㄷ ③ ㄴ, ㄷ
④ ㄴ, ㄹ ⑤ ㄷ, ㄹ

14. 그림은 우리나라 상업의 발달 및 변화 과정을 나타낸 것이다. 이에 대한 설명으로 옳지 <u>않은</u> 것은?

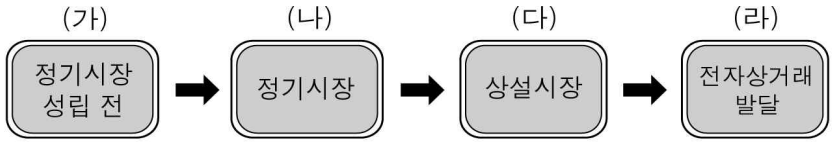

① (가) – 개인 행상에 의한 소규모 거래가 주로 이루어졌다.
② (나) – 주기적으로 다수 판매자와 구매자가 상거래를 하였다.
③ (나) – 인구의 증가 및 교통 발달 과정에서 수가 감소하였다.
④ (다) – 운송비가 줄어들 경우 상품의 도달범위는 축소된다.
⑤ (라) – 상품을 구매할 수 있는 시간 및 범위가 확대되었다.

15. 다음은 신문 기사의 일부이다. 이와 같은 현상이 나타나는 지역의 특성에 대한 옳은 설명을 <보기>에서 고른 것은?

초등학교들 "신입생을 모셔라"

서울 ○○구의 한 초등학교는 올해 신입생이 단 7명 뿐이다. 역사가 100년이 넘는 이 학교는 2009년엔 신입생이 15명, 지난해는 12명으로, 한 학급 채우기도 힘들 정도다. 인근 다른 초등학교도 사정은 비슷하다. 과거 졸업생을 830명씩 배출했던 어느 초등학교는 올해 38명의 신입생으로 3월 입학식을 치른다.

존립 위기에 몰린 이들 학교는 급기야 '신입생 모시기 마케팅'에 돌입했다. 인근 유치원과 백화점, 병원, 은행 등에 학교를 알리는 홍보 자료를 돌리는가 하면, 연중무휴로 아이들을 돌봐주는 '돌봄 교실'을 운영하기도 한다.

– ○○일보, 2011. 02. 07 –

〈 보 기 〉
ㄱ. 지가가 높아 건물의 고층화가 뚜렷하다.
ㄴ. 교통이 편리하여 공업 단지가 조성된다.
ㄷ. 접근성이 양호하여 주간 유동 인구가 많다.
ㄹ. 녹지 비율이 높아 주변보다 기온이 낮다.

① ㄱ, ㄴ ② ㄱ, ㄷ ③ ㄴ, ㄷ
④ ㄴ, ㄹ ⑤ ㄷ, ㄹ

16. 자료는 수도권에 위치한 A ~ E 도시의 통근 인구에 관한 것이다. 이에 대한 옳은 분석을 <보기>에서 고른 것은? [3점]

도시	인구 수 (천 명)	통근자 수 (천 명)
A	57	29
B	320	161
C	267	139
D	374	193
E	139	66

(통계청, 2005)

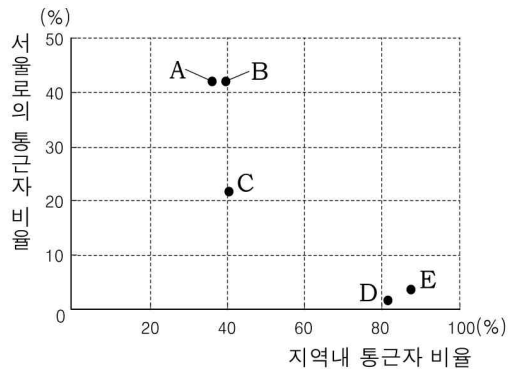

〈 보 기 〉
ㄱ. A는 서울로의 통근자 수가 가장 많다.
ㄴ. A는 D보다 침상도시로서의 성격이 뚜렷하다.
ㄷ. B는 C보다 지역 내 통근자 수가 더 많다.
ㄹ. C는 E보다 인구 수 대비 통근자 수 비율이 낮다.

① ㄱ, ㄴ ② ㄱ, ㄷ ③ ㄴ, ㄷ
④ ㄴ, ㄹ ⑤ ㄷ, ㄹ

17. 표는 우리나라의 연령별 인구 구성비 변화를 나타낸 것이다. 이를 바탕으로 그래프의 (가)를 완성할 때 옳은 것은? [3점]

연도	0~14세	15~64세	65세이상
1970	42.5	54.4	3.1
1980	34.0	62.2	3.8
1990	25.6	69.3	5.1
2000	21.1	71.7	7.2
2010	16.2	72.5	11.3
2020	12.4	72.0	15.6
2030	11.4	64.4	24.2
2050	8.9	53.0	38.1

* 2020 ~ 2050년은 장래 추계 인구임.
(단위: %)

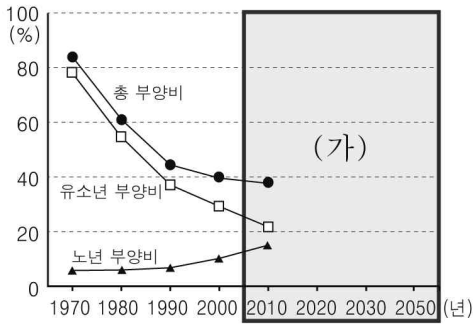

<인구 부양비 추이>

①
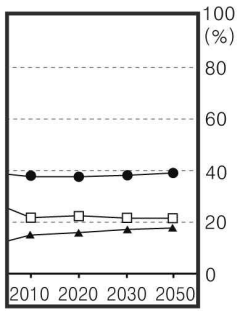

②
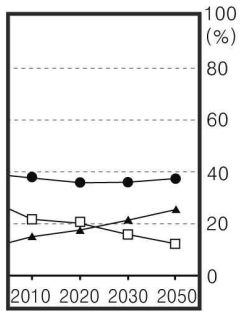

③
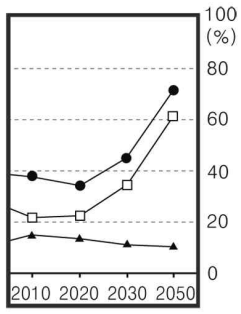

④
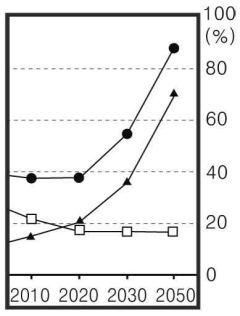

⑤
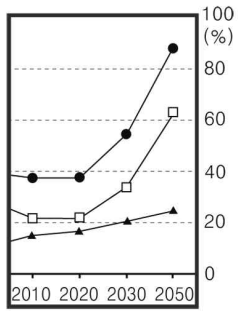

18. 다음은 지역 개발 방식의 대표적 사례를 나타낸 것이다. (가), (나)의 성격을 그래프의 A ~ E에서 골라 바르게 짝지은 것은?

개발 방식	대표적 사례
(가)	○○시는 1962년 특정 공업 지구로 지정 · 공포되고 도시로 승격하였다. 이후 우리나라 산업 발전의 원동력이 되었던 산업 단지가 건설되었고 이에 기반을 둔 석유화학 산업, 자동차 산업 등을 급속히 발전시켜 우리나라 최대의 중화학 공업도시로 성장하였다.
(나)	◇◇군은 포도의 주산지로서 최근 와인산업의 육성을 통한 부가가치 창출로 지역 경제의 활성화를 이루어 냈다. 또한 2006년부터 운행을 시작해 전국적으로 널리 알려진 '와인 트레인'이라는 체험 관광 프로그램을 자체 개발하여 매년 1만 명 이상의 관광객을 유치하고 있다.

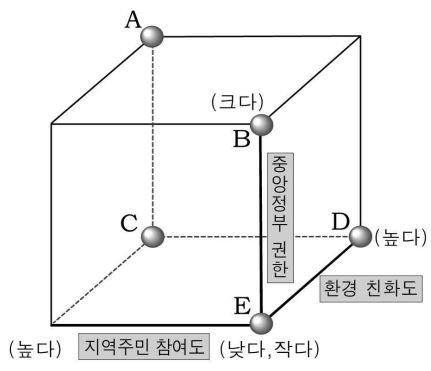

	(가)	(나)
①	A	E
②	B	C
③	C	B
④	D	C
⑤	E	A

19. 그래프 (가), (나)는 서로 다른 지역의 연령별 · 성별 인구 구조를 나타낸 것이다. 이에 대한 설명으로 옳지 않은 것은?

(가)
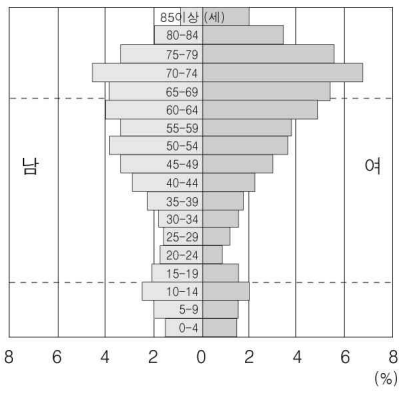

(나)
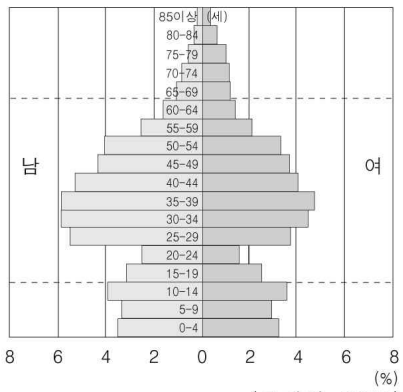

(통계청, 2010)

① (가)는 노동력 부족 문제가 발생한다.
② (나)는 중공업 도시의 인구 특성이 나타난다.
③ (가)는 (나)보다 평균 연령이 높다.
④ (나)는 (가)보다 유소년층 비율이 높다.
⑤ (가), (나) 모두 노년층의 성비는 100 이상이다.

20. 그래프는 우리나라 도시들의 인구 규모와 연평균 인구 증가율을 나타낸 것이다. (가) ~ (라) 도시군에 대한 옳은 설명을 <보기>에서 고른 것은? [3점]

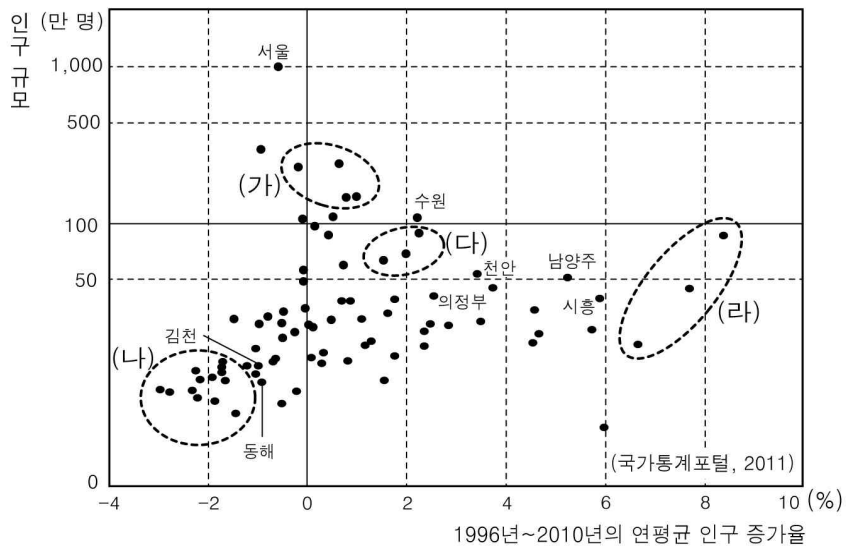

〈 보 기 〉

ㄱ. (가)는 중화학 공업이 발달한 남동 임해 지역에 위치한다.
ㄴ. (나)는 주로 산업 기반이 취약한 지방 중심 도시 또는 광산 도시에 해당한다.
ㄷ. (다)는 비수도권의 광역시가 포함되며, 지역 생활권 형성에서 중심지 역할을 한다.
ㄹ. (라)의 급성장은 최근 신도시 건설 및 제조업 발달과 관계가 깊다.

① ㄱ, ㄴ ② ㄱ, ㄷ ③ ㄴ, ㄷ
④ ㄴ, ㄹ ⑤ ㄷ, ㄹ

※ 확인사항
문제지와 답안지의 해당란을 정확히 기입(표기)했는지 확인하시오.