2012학년도 3월 고2 전국연합학력평가 문제지

제 4 교시 사회탐구 영역 (도덕)

성명		수험 번호						2				

◦ 자신이 선택한 과목의 문제지인지 확인하시오.
◦ 문제지의 해당란에 성명과 수험 번호를 정확히 쓰시오.
◦ 답안지의 해당란에 성명과 수험 번호를 쓰고, 또 수험 번호와 답을 정확히 표시하시오.
◦ 문항에 따라 배점이 다르니, 각 물음의 끝에 표시된 배점을 참고하시오. 3점 문항에만 점수가 표시되어 있습니다. 점수 표시가 없는 문항은 모두 2점입니다.

1. 다음 대화에서 을의 견해와 일치하는 주장을 <보기>에서 고른 것은?

갑 을

<보 기>

ㄱ. 인간의 행위는 초월적 존재에 의해 결정된다.
ㄴ. 인간은 목적을 스스로 세우고 실행할 수 있다.
ㄷ. 인간은 타고난 운명에 순응할 때 자유로울 수 있다.
ㄹ. 인간은 자신이 하는 행위의 이유에 대해 생각할 수 있다.

① ㄱ, ㄴ ② ㄱ, ㄷ ③ ㄴ, ㄷ ④ ㄴ, ㄹ ⑤ ㄷ, ㄹ

2. 다음 주장이 초래할 수 있는 문제점으로 적절하지 않은 것은?

> 생명 공학 기술의 발달은 난치병의 원인을 밝혀내어 치료제를 개발하고, 손상된 장기를 재생하여 환자 본인 및 가족들에게 행복을 가져다 줄 수 있어. 또한 식물의 유전자 지도를 해석하여 식량 위기로부터 벗어날 수 있게 해. 그래서 생명 공학 기술의 발전은 무한정 허용되어야 해.

① 과학 기술의 사회적 효용성이 줄어들 수 있다.
② 인간의 정신적·도덕적 가치가 경시될 수 있다.
③ 생명의 시작과 죽음에 대한 혼란이 발생할 수 있다.
④ 인간의 생명 연장을 위해 다른 생명을 도구화할 수 있다.
⑤ 생명 공학 기술의 발전 혜택이 불공정하게 배분될 수 있다.

3. 밑줄 친 부분에 대한 설명으로 옳은 것을 <보기>에서 고른 것은?

> 앞을 못 보는 사람이 밤에 물동이를 머리에 이고, 한 손에는 등불을 들고 길을 걸었다. 그와 마주친 사람이 물었다. "정말 어리석군요. 앞을 보지도 못하면서 등불은 왜 들고 다닙니까?" 그가 말했다. "당신이 나와 부딪히지 않게 하려고요. 이 등불은 나를 위한 것이 아니고 당신을 위한 것입니다."

<보 기>

ㄱ. 도덕적 상상력을 발휘한 행동이다.
ㄴ. 도덕적 책임을 벗어나기 위한 행동이다.
ㄷ. 상대방의 입장을 고려하여 행동한 것이다.
ㄹ. 도덕적 정서보다 비판적 사고를 중시한 행동이다.

① ㄱ, ㄴ ② ㄱ, ㄷ ③ ㄴ, ㄷ ④ ㄴ, ㄹ ⑤ ㄷ, ㄹ

4. 다음의 문제 상황에 대한 예방책으로 가장 적절한 것은?

> 고3 수험생인 A군은 요즘도 악몽을 꾼다. 불법인 줄 모르고 인터넷 카페에 올린 소설 때문에 저작권 위반으로 고소를 당한 것이다. 겨우 돈을 빌려 40만원의 합의금을 냈지만, 다른 곳에 올린 또 다른 파일 때문에 언제 고소장이 날아올지 몰라 불안한 상황이다.

① 학교에서 정보통신윤리 교육을 강화한다.
② 강력한 법적 처벌을 통해 경각심을 일깨운다.
③ 사이버 시민 단체의 정치 참여를 활성화한다.
④ 정부 차원의 정보 공유 네트워크를 구축한다.
⑤ 정보 격차 해소를 위한 정보 활용 교육을 강화한다.

5. (가), (나)는 자유의 두 유형이다. 옳은 설명을 <보기>에서 고른 것은? [3점]

(가)	부당한 구속이나 억압으로부터 벗어나 어떤 행동을 선택함에 있어서 강요받지 않는 상태이다.
(나)	자신의 삶과 행위의 목적을 설정하고 그것을 주체적으로 실천에 옮길 수 있는 상태이다.

<보 기>

ㄱ. (가)는 자아실현, 개성 표현 등으로 나타난다.
ㄴ. (나)는 '외부 통제로부터의 자유'를 의미한다.
ㄷ. (가)는 소극적 자유에, (나)는 적극적 자유에 해당한다.
ㄹ. (가)가 보장된다고 해서 (나)가 반드시 실현되는 것은 아니다.

① ㄱ, ㄴ ② ㄱ, ㄷ ③ ㄴ, ㄷ ④ ㄴ, ㄹ ⑤ ㄷ, ㄹ

6. 밑줄 친 부분에 대한 설명으로 옳지 않은 것은? [3점]

> 자유를 제한할 수 있는 경우로 '도덕 강제의 원리'가 있다. 이 원리는 도덕을 법으로 강제할 수 있다는 것으로, 다른 사람에게 직접적으로 해악을 끼치거나 혐오감을 주지는 않지만, 사회의 존속과 안정을 위협하는 부도덕한 행위를 법으로 규제할 수 있다는 점을 고려한 것이다.

① '법은 최소한의 도덕'이라는 주장을 반영한 것이다.
② 도박, 마약, 성매매 등의 처벌이 그 예가 될 수 있다.
③ 개인의 주관과 가치관에 따라 수용 여부가 결정된다.
④ 남용될 경우 개인의 자유와 인권이 침해될 우려가 있다.
⑤ 공동체의 존속과 바람직한 가치를 보호하는 데 도움을 준다.

7. 다음 내용과 관계 깊은 국가의 역할로 적절한 것은?

> ○ 독거노인 U-Care 서비스 : 독거노인 가정에 외출 감지, 화재 감지, 가스 유출 감지, 응급 호출기 등의 센서를 설치하여 노인의 안전을 돕는 응급 복지 서비스
> ○ 최저 임금 제도 : 국가가 근로자의 생활 안정을 위해 임금의 최저 수준을 정하고, 사용자에게 그 수준 이상의 임금을 지급하도록 법으로 강제하는 제도

① 외국의 침입으로부터 자국민을 보호한다.
② 국가의 부(富)를 증진시키기 위해 노력한다.
③ 공동선의 추구를 위해 개인의 자유를 제한한다.
④ 국민의 삶의 질 향상을 위해 사회복지를 증진한다.
⑤ 정책 추진에 필요한 국민의 지지와 동원을 이끌어 낸다.

8. ㉠에 들어갈 제목으로 가장 적절한 것은?

> ○○신문 ◇◇◇◇년 □월 △일
>
> 사 설
>
> ㉠
>
> 현재 세계에서 1년 동안 소비되는 커피는 약 4천억 잔이다. 그 이윤의 99%는 다국적 기업을 비롯한 커피 재배와 직접 관련 없는 사람들이 가져가고, 정작 커피 생산 농가는 불과 1%의 이윤만 가져갈 뿐이다. 이러한 불공정한 이윤 배분의 문제를 해결하기 위해서는 '윤리적 소비' 운동이 필요하다. 불공정한 무역을 하는 기업의 제품에 대해 불매 운동을 벌이고, 공정 무역 순위가 높은 기업의 제품을 구매하자는 것이다. 이제 인간적인 자본주의를 위해서라도 소비자들의 현명한 선택이 필요하다.

① 윤리적 소비는 허황된 생각
② 윤리적 소비로 공정 무역을 이끌자
③ 공정 무역, 소비자가 아니라 자본가가 나서야
④ 불공정 무역이 세계 경제 성장을 방해한다
⑤ 다국적 기업이 경제 성장을 이끌어야 한다

9. 다음은 ㉠에 관한 인터넷 검색 결과이다. ㉠에 대한 설명으로 적절하지 않은 것은? [3점]

> 백과사전
>
> 통합검색 ▼ ㉠ ▼ 검색
>
> 통합검색 | 사이트 | 웹문서 | 지역IN | 블로그 | 카페 | 이미지 | 뉴스 | 더보기
>
> 백과사전
>
> 동양에서는 '의로움[義]'을, 서양에서는 '각자에게 자신의 몫을 주는 것, 또는 공정성'을 의미하였다. 안대를 두르고 저울과 칼을 든 여신상이 이를 상징한다.
>
> 인터넷

① 도덕이나 법과 같은 사회 규범의 기준을 제시한다.
② 국가가 법을 공평하게 집행함으로써 실현할 수 있다.
③ 형식적으로는 '같은 경우에는 모두 동일하게' 대우하는 것을 말한다.
④ '최대 다수의 최대 행복'의 원리에 따를 경우 분배의 결과보다 과정을 중시하게 된다.
⑤ 롤스에 의하면 최소 수혜자에게 최대의 이익을 제공하고 기회를 균등하게 보장함으로써 가능하다.

10. (가)의 도덕적 관점에서 (나)의 흐름도를 완성하고자 할 때 A와 B에 들어갈 질문으로 옳은 것은? [3점]

(가)	이 세상 안이나 밖에서 무조건적으로 선한 것은 선의지뿐이다. 선의지는 성취하고 수행하는 일이 선하기 때문에 선한 것이 아니며, 목적 달성에 유용하기 때문에 선한 것도 아니다. 선의지는 그 자체로서 선한 것이다. - 『도덕 형이상학의 기초』 -
(나)	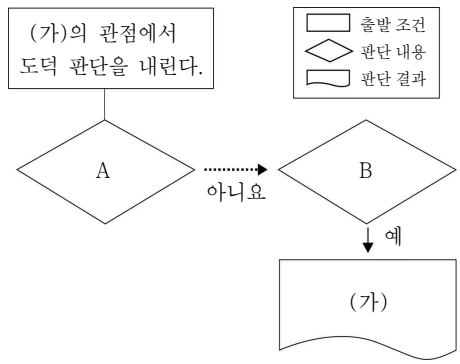

① A - 선의지에 따른 행동은 옳은가?
② A - 언제 어디서나 지켜야 할 도덕규범이 있는가?
③ B - 도덕적 행동의 기준으로 결과보다 동기를 중시하는가?
④ B - 개인적·주관적 관점에서 도덕 판단을 내려야 하는가?
⑤ B - 도덕적 행동은 장기적으로 자기에게 이익이 되는 것인가?

11. 다음 글에서 얻을 수 있는 교훈으로 적절한 것을 <보기>에서 고른 것은? [3점]

> 1986년 강풍이 유럽을 강타했을 때 울창한 숲이 한순간에 파괴되었다. 대책을 마련하기 위해 수목학자들이 조사한 결과, 심하게 파괴된 곳은 인공적으로 조성한 숲이었다. 똑같은 종류의 나무를 일률적으로 심다 보니 몇십 년을 자란 아름드리 나무라고 하여도 강풍이 불자 한꺼번에 쓰러진 것이다. 하지만 자연의 숲은 그렇지 않았다. 수종도, 크기도 제각각인 그곳의 나무들은 큰바람이 불자 크기 순서대로 흔들렸다. 흔들림과 부딪침은 오히려 바람을 흩뜨리는 구실을 하여 숲을 지킨 것이다.

<보 기>

ㄱ. 획일성보다는 다원성이 사회를 건강하게 만든다.
ㄴ. 공동체의 이익을 위해 개인의 희생은 감수해야 한다.
ㄷ. 조화로운 사회를 위해 타인과의 상호 작용이 필요하다.
ㄹ. 인간의 복지 증진에 도움이 되도록 자연을 개발해야 한다.

① ㄱ, ㄴ ② ㄱ, ㄷ ③ ㄴ, ㄷ ④ ㄴ, ㄹ ⑤ ㄷ, ㄹ

12. 다음 내용을 통해 추론할 수 있는 한민족 공동체의 발전 방향으로 적절한 것은?

> ○ 우리가 세계 금융 위기에 처했을 때, 재외 동포들은 고국에 투자하고 한국산 제품을 구매하자는 한민족 바이 코리아(Buy Korea) 운동을 전개했다.
> ○ 2009년 2월 해외에 일시 체류하는 국민뿐만 아니라 영주권을 가진 재외 동포도 대통령 선거와 국회의원 선거에 참여할 수 있도록 재외국민투표권이 부여되었다.

① 다른 민족과의 교류와 협력을 강화한다.
② 세계 시장에서 경제적 영향력을 강화한다.
③ 한민족 공동체의 범위를 세계적으로 확대한다.
④ 인류 공동의 문제를 해결하려는 자세를 갖는다.
⑤ 혈연 중심의 '한민족'과 국적 중심의 '한국인'을 구분한다.

13. 다음 글이 주는 시사점으로 가장 적절한 것은?

> 1920년대 미국에서 전 세계를 들끓게 한 '사코와 반제티 사건'이 있었다. 사코와 반제티는 한 제화 공장에서 발생한 강도 살인 용의자로 체포되어 사형 선고를 받았다. 시민들은 법이 외국인인 그들에게 불공정하게 적용되었음을 비판하며, 사형집행 반대 운동을 벌였다. 하지만 1927년 결국 사형은 집행되었다. 그 후 1959년 진범이 체포되었고, 1977년 미국 사법부는 사코와 반제티의 유죄 선고를 취소하였다.

① 국가 권력은 함부로 제한받아서는 안 된다.
② 국가 권력과 개인의 인권은 서로 양립할 수 없다.
③ 국가 권력 남용에 따른 피해는 국민이 감수해야 한다.
④ 국가는 공공복리를 위해서 개인의 자유를 제한할 수 있다.
⑤ 국가 권력은 시민들의 참여와 비판에 귀기울일 필요가 있다.

14. (가)의 관점에서 (나)에 나타난 문제를 해결하기 위한 방안을 <보기>에서 고른 것은? [3점]

(가)	아무리 개인이 도덕적으로 살려고 해도 그가 살고 있는 사회의 도덕성이나 사회 구조가 잘못되어 있다면, 개인의 그러한 노력이 무슨 소용이 있겠는가?
(나)	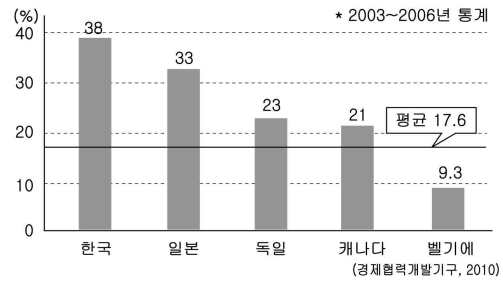 ▲ OECD국가의 남녀 정규직 근로자 임금 격차

<보 기>

ㄱ. 직장 내의 양성평등교육을 의무화한다.
ㄴ. 회사 최고 경영 책임자의 양심에 호소한다.
ㄷ. 성별보다 능력 위주의 임금제도를 정착시켜 나간다.
ㄹ. 근로자 스스로 자신의 권익 보호를 위해 노력한다.

① ㄱ, ㄴ ② ㄱ, ㄷ ③ ㄴ, ㄷ ④ ㄴ, ㄹ ⑤ ㄷ, ㄹ

15. 다음은 어느 사상가가 제시한 이상사회의 모습이다. 바르게 답한 학생은? [3점]

> 큰 도가 행해지면 천하가 공평해진다. 덕 있는 사람과 재능 있는 사람을 뽑아, 서로 믿으며 화목할 수 있게 된다. 그러므로 사람들은 자기 어버이만을 공경하거나 자기 자식만을 사랑하지 않는다. 노인은 안락하게 삶을 마칠 수 있고, 젊은이는 충분히 자기 능력을 발휘할 수 있으며, 어린이는 안전하게 자랄 수 있고, 어려움에 처한 사람들은 보살핌을 받을 수 있게 된다.

위 이상사회에 대한 설명으로 옳으면 ○, 틀리면 ×를 하시오.	갑	을	병	정	무
경제적 형평성과 복지를 지향한다.	○	×	○	×	○
문명을 거부하고 무욕의 소박한 삶을 추구한다.	○	○	×	×	×
도덕성을 기반으로 현실을 개선하고자 한다.	×	○	×	○	○

① 갑 ② 을 ③ 병 ④ 정 ⑤ 무

16. 다음과 같은 시민들의 행동을 정당화 할 수 있는 조건으로 옳지 않은 것은?

> 1955년 12월, 미국 앨라배마주(州) 몽고메리시(市)에 전단지가 뿌려졌다. 한 흑인 여성이 백인에게 버스 자리를 양보하지 않아 감옥에 수감된 사실을 알리고, 이 부당한 체포와 재판에 맞서기 위해 월요일에는 버스를 타지 말자는 것이었다. 이 전단지 한 장으로 인해 사람들은 30km 이상의 거리를 걸어서 출근하였고 월요일의 버스는 텅 비게 되었다. 그리고 버스 보이콧 참가자들에 대한 체포와 폭행, 협박과 해고가 이어졌지만 이들은 비폭력의 원칙을 끝까지 지키면서 저항했다.

① 목적 달성을 위한 최후의 수단이어야 한다.
② 폭력적이거나 파괴적인 방법을 자제해야 한다.
③ 공공의 이익을 실현할 수 있는 경우이어야 한다.
④ 사회 체제의 변화를 직접적인 목표로 삼아야 한다.
⑤ 부당한 법을 어김으로써 받게 되는 처벌을 감수해야 한다.

17. 다음과 같은 문제점을 극복하기 위해 민족주의가 나아가야 할 방향으로 옳은 것은?

> 국제 결혼이 늘어나면서 다문화 가정에서 태어난 2세들의 수가 증가하고 있다. 다문화 가정의 자녀들은 생김새가 다르거나, 한국어 능력이 부족하여 친구들과 잘 어울리지 못하는 경우가 많다. 이로 인해 학교생활에 어려움을 겪고 있으며, 이들 중 24%가 학교에 다니지 않는 것으로 조사되었다.

① 개방적이고 포용적인 민족애를 갖는다.
② 자민족중심주의 입장에서 타문화를 평가한다.
③ 민족의식을 버리고 세계시민주의를 지향한다.
④ 민족의 객관적 요소를 민족 구분의 지표로 삼는다.
⑤ 민족의 고유성을 유지하기 위하여 전통문화를 고수한다.

18. 한글 낱말 퍼즐에서 세로 열쇠 (가)에 대한 설명으로 옳은 것은? [3점]

	(가)				**[가로 열쇠]** (가) 불교의 사랑 (나) 토마스 모어의 이상사회 (다) 맹자의 4덕 : ○○예지 (라) 앎과 행동이 하나됨 **[세로 열쇠]** (가) _____
	(나)				
(다)					
	(라)				

① 민족 공동체에 대한 소속감 이상의 연대감
② 계층 간에 발생하는 정보의 양적·질적 차이
③ 인간의 행위에 도덕적 책임을 물을 수 있는 전제 조건
④ 사회계약론에서 주장하는 사회 형성 이전의 가상 상태
⑤ 지혜, 용기, 절제가 조화를 이룬 플라톤의 이상적 인간상

19. 다음 사상가들이 공통적으로 강조하는 삶의 자세로 가장 적절한 것은? [3점]

① 인간과 자연의 조화를 추구한다.
② 내적 평화를 통해 도덕적 삶을 추구한다.
③ 만물은 생명의 그물로 연결된 존재임을 인식한다.
④ 사회적 갈등 해결을 위해 용서와 화해를 실천한다.
⑤ 시비선악에 대한 분별을 버리고 자유로운 삶을 추구한다.

20. 다음은 학생의 수행평가 답안이다. ㉠~㉤ 중 옳지 않은 것은? [3점]

> **수행 평가**
>
> ○○반 ○○번 이름○○○
>
> • 문제 : 다음에서 설명하는 개념이 무엇인지 쓰고, 이를 지나치게 강조할 경우 예상되는 문제점과 그 예를 서술하시오.
>
> **세계 정부를 통해 국가들 간의 갈등과 분쟁을 평화롭게 해결하고, 환경 문제와 같은 인류 공동의 문제 해결을 추구하는 이념**
>
> • 학생 답안
>
> 위에서 설명하는 개념은 세계주의이다. ㉠세계주의는 인류 전체를 한 세계의 시민으로 보는 입장으로, 이것이 지나치게 강조될 경우 다음과 같은 문제점이 발생할 수 있다. 먼저, 세계의 다양한 ㉡국가들 간의 이익이 상충할 경우 세계 공동의 이익 추구가 현실적으로 어렵다. 그리고 세계주의라는 미명 아래 ㉢강대국의 입장이 약소국에게 강요될 수 있으며, 문화적 측면에서 세계주의는 ㉣문화의 다양성을 파괴할 수 있다. 이러한 ㉤세계주의가 지나치게 강조된 예로는 나치즘, 파시즘 등을 들 수 있다.

① ㉠ ② ㉡ ③ ㉢ ④ ㉣ ⑤ ㉤

※ 확인 사항
◦ 답안지의 해당란에 필요한 내용을 정확히 기입(표기)했는지 확인하시오.

2012학년도 3월 고2 전국연합학력평가 문제지

제 4 교시 사회탐구 영역 (한국사)

성명		수험 번호						2				

◦ 자신이 선택한 과목의 문제지인지 확인하시오.
◦ 문제지의 해당란에 성명과 수험 번호를 정확히 쓰시오.
◦ 답안지의 해당란에 성명과 수험 번호를 쓰고, 또 수험 번호와 답을 정확히 표시하시오.
◦ 문항에 따라 배점이 다르니, 각 물음의 끝에 표시된 배점을 참고하시오. 3점 문항에만 점수가 표시되어 있습니다. 점수 표시가 없는 문항은 모두 2점입니다.

1. 다음 유적과 유물이 만들어진 시기에 대한 설명으로 옳은 것을 <보기>에서 고른 것은?

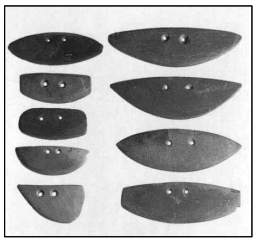

<보 기>
ㄱ. 계급이 발생하였다.
ㄴ. 농경 생활이 시작되었다.
ㄷ. 비파형 동검이 제작되었다.
ㄹ. 뗀석기가 주로 사용되었다.

① ㄱ, ㄴ ② ㄱ, ㄷ ③ ㄴ, ㄷ ④ ㄴ, ㄹ ⑤ ㄷ, ㄹ

2. (가)에 들어갈 내용으로 적절한 것을 <보기>에서 고른 것은?

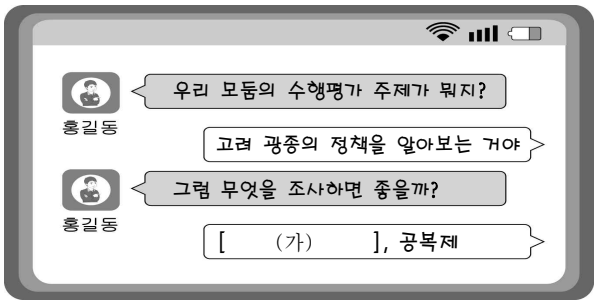

<보 기>
ㄱ. 골품제 ㄴ. 과거제
ㄷ. 화백 회의 ㄹ. 노비안검법

① ㄱ, ㄴ ② ㄱ, ㄷ ③ ㄴ, ㄷ ④ ㄴ, ㄹ ⑤ ㄷ, ㄹ

3. 다음 대화와 관련된 사건으로 옳은 것은?

① 갑신정변 ② 갑오개혁 ③ 아관 파천
④ 운요호 사건 ⑤ 거문도 사건

4. 다음 상소문이 나오게 된 배경으로 옳은 것은?

함경도 관찰사 조병식이 삼가 아룁니다

콩을 외지로 반출하는 것에 대한 금지령을 해제하라는 일과 관련하여 국가에 손해를 끼쳤으니, 신의 죄가 이에 더욱 드러났습니다. …(중략)… 끝내 재주가 직책에 걸맞지 못하여 일마다 잘못되는 바람에 마침내 성상의 귀를 번거롭게 하고 한갓 죄만 더 쌓고 말았습니다.

① 일본의 개항 요구를 반대하였다.
② 당백전 발행으로 물가가 폭등하였다.
③ 일부 지방관들이 방곡령을 실시하였다.
④ 일본이 조선에 황무지 개간권을 요구하였다.
⑤ 일본이 서울과 부산을 잇는 철도를 개통하였다.

5. 다음 문제점을 해결하기 위하여 시행된 조선 영조의 정책으로 옳은 것은? [3점]

100여 년에 걸친 나라의 고질 병폐로서 가장 심한 것은 양인의 군역이다. …(중략)… 한 집안에 할아비와 손자가 군적에 한꺼번에 기록되어 있거나, 갓난아이도 군적에 편성되고, 죽은 자는 지하에서 포를 징수 당하니, 비록 좋은 재상과 현명한 수령이라도 역시 어찌할 바를 모른다.

① 공명첩을 발급하고 납속책을 실시하였다.
② 1년에 2필이던 군포를 1필로 줄여 주었다.
③ 매년 토지 1결당 미곡 4두를 거두게 하였다.
④ 관 주도의 환곡제를 민간 주도의 사창제로 바꾸었다.
⑤ 공인을 통해 관청에서 필요한 물품을 납부하게 하였다.

6. (가), (나) 국가에 대한 설명으로 옳지 않은 것은?

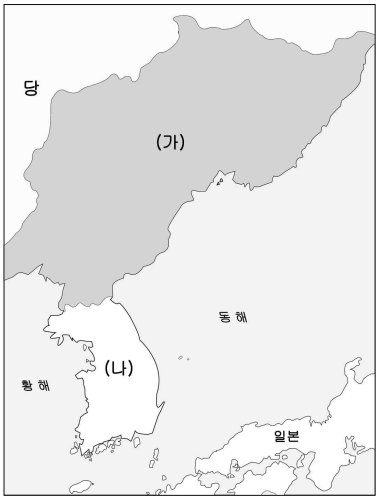

① (가)-거란의 침략으로 멸망하였다.
② (가)-지배층의 대부분이 고구려 유민이었다.
③ (나)-몽골에 맞서 수도를 강화도로 옮겼다.
④ (나)-9주 5소경의 지방 행정 조직을 두었다.
⑤ (가), (나)-신라도를 통해 교류가 이루어졌다.

7. (가), (나) 의병에 대한 설명으로 옳은 것을 <보기>에서 고른 것은? [3점]

(가) 원통함을 어이하리. 국모의 원수를 생각하며 이를 갈았는데, 참혹함이 더욱 심해져 임금께서 또 머리를 깎으시는 지경에 이르렀다. …(중략)… 환난을 회피하기란 죽음보다 더 괴로우며 멸망을 앉아서 기다릴진대 싸우는 것만 같지 못하다.
(나) 가평, 원주, 제천 등 여러 곳에서 의병이 봉기하였는데 이는 모두가 해산 병정이다. 서양식 총을 갖고 있고, 오래 조련을 받아 규율이 있어 일본군과 교전하면 살상을 많이 한다. 세력 또한 강대하여 그 수가 거의 4, 5천 명이나 된다고 한다.

<보 기>
ㄱ. (가)-을사조약에 반대하여 전국적으로 일어났다.
ㄴ. (가)-국왕의 해산 권고에 따라 대부분 해산하였다.
ㄷ. (나)-평민 출신 의병장이 등장하기 시작하였다.
ㄹ. (나)-서울 진공 작전을 전개하였으나 실패하였다.

① ㄱ, ㄴ ② ㄱ, ㄷ ③ ㄴ, ㄷ ④ ㄴ, ㄹ ⑤ ㄷ, ㄹ

8. (가), (나) 사이에 있었던 역사적 사실을 <보기>에서 고른 것은?

(가) 16세기 말 일본의 도요토미 히데요시는 100여 년에 걸친 전국 시대의 혼란을 수습하여 통일 국가를 이룩하였다. 도요토미는 불평 세력의 관심을 밖으로 돌리고 자신의 대륙 진출 야욕을 펴기 위해 조선을 침략하였다.
(나) 국력이 강성해진 후금은 국호를 청으로 바꾸고, 조선에 군신 관계를 요구하였다. 그러나 조선 조정은 청의 요구를 거절하였고, 이에 청 태종은 조선을 침략하였다.

<보 기>
ㄱ. 명이 쇠퇴하고 여진족이 급성장하였다.
ㄴ. 광해군은 중립 외교 정책을 추진하였다.
ㄷ. 거란과 외교 담판으로 강동 6주를 획득하였다.
ㄹ. 쌍성총관부를 공격하여 철령 이북의 땅을 회복하였다.

① ㄱ, ㄴ ② ㄱ, ㄷ ③ ㄴ, ㄷ ④ ㄴ, ㄹ ⑤ ㄷ, ㄹ

9. 그림이 유행하던 당시의 모습으로 옳지 않은 것은? [3점]

① 서당 교육이 보급되어 서민 의식이 성장하였다.
② 중인과 서민층이 문예 활동에 적극 참여하였다.
③ 공연 형식의 판소리와 탈춤이 널리 인기를 얻었다.
④ 신분제의 동요로 양반의 권위가 무너지고 있었다.
⑤ 현존하는 세계 최초의 금속 활자본이 제작되었다.

10. 자료와 관련된 민족 운동에 대한 설명으로 옳은 것은? [3점]

조선의 피압박 학생 대중이여! 단결하여 궐기하라!
전투적 반항으로 학살 당한 광주 사건을 지지하고 성원하라.
지금 이후의 역사는 우리의 것이다.
1. 구속된 광주 조선 학생을 즉시 탈환하라.
1. 식민지 노예 교육을 반대하라.
– 학생 투쟁 지도 본부 격문 –

① 고종의 인산일을 기해 일어났다.
② 물산 장려 운동에 영향을 주었다.
③ 민족 말살 통치를 배경으로 발생하였다.
④ 대한민국 임시 정부 수립의 계기가 되었다.
⑤ 3·1 운동 이후 최대의 항일 민족 운동이었다.

11. 다음과 같은 외교론이 등장한 시기를 연표에서 고른 것은? [3점]

> 우리 나라가 아시아의 중립국이 되는 것은 러시아를 막는 중요한 계기가 될 것이며, 또 아시아의 대국들이 서로 균형을 이루는 정략도 될 것이다. …(중략)… 오직 중립 한 가지만이 진실로 우리 나라를 지키는 방책이지만, 이를 우리가 먼저 제창할 수 없으니, 중국이 이를 맡아서 처리해 주도록 청하는 것이 좋을 것이다.
>
> – 『유길준 전서』 –

1863		1876		1882		1884		1896		1897
	(가)		(나)		(다)		(라)		(마)	
흥선 대원군 집권		강화도 조약		임오군란		갑신정변		아관 파천		대한제국 성립

① (가) ② (나) ③ (다) ④ (라) ⑤ (마)

12. 다음 글을 쓴 인물에 대한 설명으로 옳은 것은?

> 역사란 무엇이뇨. 인류 사회의 아(我)와 비아(非我)의 투쟁이 시간부터 발전하며 공간부터 확대하는 심적 활동의 상태의 기록이니 …(중략)… 무릇 주체적 위치에 선 자는 아(我)라 하고, 그 밖에는 비아(非我)라 하는 것이다.
>
> – 『조선상고사』 –

① 한국사의 타율성, 정체성을 강조하였다.
② 일본인과 한국인의 조상이 같다고 주장하였다.
③ 조선사 편수회를 중심으로 연구 활동을 전개하였다.
④ 한국의 근대화는 일본에 의해 이루어졌다고 보았다.
⑤ 민족 의식을 중시하면서 우리 역사의 주체성을 강조하였다.

13. 다음을 발표한 정부에서 추진한 정책으로 옳은 것은?

> 제1조 대한국은 세계 만국이 공인한 자주 독립 제국이다.
> 제3조 대한국 대황제는 무한한 군권을 누린다.
> 제5조 대한국 대황제는 육해군을 통솔한다.
> 제9조 대한국 대황제는 각 조약 체결 국가에 사신을 파견하고 선전, 강화 및 제반 조규를 체결한다.

① 서원을 대폭 정리하였다.
② 전국 각지에 척화비를 세웠다.
③ 황제권을 강화하고 지계를 발급하였다.
④ 세도 가문이 주도하던 비변사를 해체하였다.
⑤ 임진왜란 때 불타 버린 경복궁을 중건하였다.

14. 신문 기사와 관련된 사건이 일어나게 된 배경으로 옳은 것은? [3점]

> ○○일보 1960년 4월 11일
>
> 마산 앞바다에 왼쪽 눈에 최루탄이 박힌 시체가 떠올랐다. 한 낚시꾼에 의해 발견된 이 시체는 마산 상고 1학년생인 김주열 군으로 밝혀졌다. 김주열 군은 항의 시위에 참가한 뒤 행방불명된 상태였다. 처음 경찰은 발견된 시신을 병원에 옮겨 놓고 검시 결과에 대한 발표를 계속 미루었다. 이에 분노한 시민들은 책임자 처벌을 주장하는 시위를 벌이고 있으며 시위는 다른 지역으로 확산되는 양상을 보이고 있다.

① 정부가 내각 책임제로 개헌하였다.
② 자유당이 3·15 부정 선거를 저질렀다.
③ 일부 군인들이 국가 재건 최고 회의를 설치하였다.
④ 정부가 긴급 조치를 발표하여 민주화 운동을 탄압하였다.
⑤ 민주 공화당이 3선 개헌안 국민 투표 법안을 통과시켰다.

15. (가)에 들어갈 내용으로 옳은 것은? [3점]

> **한국사 수행평가 보고서**
>
> **주 제 : 6·25 전쟁**
>
> 1. 배경
> ○ 남한과 북한의 대립 심화
> ○ 소련·중국의 북한 지원
>
> 2. 전개 과정
> ○ 북한의 남침으로 전쟁 발발
> ⬇
> ○ (가)
> ⬇
> ○ 정전 협정 조인
>
> 3. 결과
> ○ 인적 피해 : 약 500만 명의 사상자와 이산가족 발생
> ○ 물적 피해 : 주택, 농지 파괴 등

① 미·소 공동 위원회 결렬
② 한·미 상호 방위 조약 체결
③ 여수·순천 10·19 사건 진압
④ 미 국무장관 애치슨의 방어선 발표
⑤ 유엔군 참전과 인천 상륙 작전 성공

16. (가) 지역에서 전개된 우리 민족의 활동으로 옳은 것은? [3점]

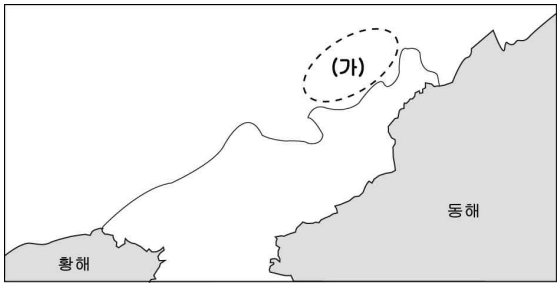

① 임시 정부를 수립하여 독립에 대비하였다.
② 신한촌을 건설하여 항일 운동을 지원하였다.
③ 유학생이 주도하여 2·8 독립 선언서를 발표하였다.
④ 대한인 국민회를 조직하고 독립 운동 자금을 모았다.
⑤ 청산리에서 일본군을 공격하여 크게 승리를 거두었다.

17. 다음 발표 이후 나타난 사실로 옳지 않은 것은?

> 정부는 관제를 개혁하여 총독 임용의 범위를 확장하고 경찰 제도를 개정하고 또한 일반 관리나 교원 등의 복제를 폐지함으로써 시대의 흐름에 순응하고 시정의 간략하고 빠름과 치화(治化)의 보급을 도모하였다. …(중략)… 조선인의 임용과 대우 등에 관해서 더욱 고려하여 각각 그 할 바를 얻게 하고 조선의 문화 및 옛 관습 중 채택할 것이 있다면 이를 채택하여 통치의 자료로 제공할 것이다.
>
> – 사이토 마코토 총독 취임사 –

① 경성제국대학이 설립되었다.
② 헌병 경찰 제도가 강화되었다.
③ 관리와 교원의 대검 착용을 폐지하였다.
④ 조선일보와 동아일보의 창간을 허용하였다.
⑤ 문관이 조선 총독에 임명될 수 있도록 하였다.

18. (가)에 들어갈 독립군 부대에 대한 설명으로 옳은 것은? [3점]

> 대한민국 임시 정부는 대한민국 원년에 정부가 공포한 군사 조직법에 의거하여 [(가)] 을/를 조직하고 …(중략)… 공동의 적인 일본 제국주의자들을 타도하기 위해 연합군의 일원으로 항전을 계속한다. 우리는 한·중 연합 전선에서 우리 스스로의 부단한 투쟁을 감행하여 동아시아를 비롯한 아시아 민중들의 자유와 평등을 쟁취할 것을 약속하는 바이다.

① 봉오동 전투에서 일본군을 물리쳤다.
② 자유시 참변으로 많은 독립군이 희생되었다.
③ 영릉가, 흥경성 전투에서 일본군을 격파하였다.
④ 미얀마와 인도에서 영국군과 연합 작전을 펼쳤다.
⑤ 중국 화북 지방으로 이동하여 조선 의용군으로 개편되었다.

19. 다음과 관련된 민족 운동에 대한 설명으로 옳은 것은?

> 우리의 국채 1,300만 원은 대한의 존망이 달린 일이라 할지니. 우리가 어찌 월남 등 멸망한 민족의 꼴을 면할 수 있으리오. 이천만 동포가 석 달만 담배를 끊어 한 사람이 한 달에 20전씩만 대금을 모은다면 거의 1,300만 원이 될 것이니. 국민들의 당연한 의무로 여겨서 잠시만 결심하면 갚을 수 있는 일이라.
>
> – 국채 보상 취지문 –

① 대구에서 시작하여 전국으로 확산되었다.
② 조선총독부의 탄압과 방해로 실패하였다.
③ 독립신문의 적극적 지원 속에 전개되었다.
④ 화폐 정리 사업이 추진되는 계기가 되었다.
⑤ '내 살림 내 것으로' 라는 구호를 내세웠다.

20. 밑줄 친 사실이 있었던 시기 일제의 식민 정책으로 옳지 않은 것은? [3점]

>
>
> 왼쪽의 소녀상은 한국정신대문제대책협의회가 2011년 12월 14일, 서울 종로구 일본 대사관 앞 수요시위 1,000회를 맞이하여 일본 정부의 사죄와 책임 이행을 요구하며 설치한 것이다. 한복을 입은 위안부 피해 소녀의 모습을 형상화한 것으로, 옆자리의 빈 의자는 소녀를 위로하는 시민의 몫으로 남겨 두었다고 한다.
>
> …(중략)… 이들은 강제로 전선으로 끌려가 일본 군인들에게 인권을 유린 당하였으며, 전후에도 육체적·정신적 고통으로 힘겨운 생활을 하고 있다.

① 미곡을 강제 공출하였다.
② 식량 배급제를 시행하였다.
③ 토지 조사령을 발표하였다.
④ 일본식 성명을 강요하였다.
⑤ 학도 지원병 제도를 실시하였다.

※ 확인 사항
◦ 답안지의 해당란에 필요한 내용을 정확히 기입(표기)했는지 확인하시오.

2012학년도 3월 고2 전국연합학력평가 문제지

제 4 교시 사회탐구 영역 (지리)

성명		수험 번호						2				

◦ 자신이 선택한 과목의 문제지인지 확인하시오.
◦ 문제지의 해당란에 성명과 수험 번호를 정확히 쓰시오.
◦ 답안지의 해당란에 성명과 수험 번호를 쓰고, 또 수험 번호와 답을 정확히 표시하시오.
◦ 문항에 따라 배점이 다르니, 각 물음의 끝에 표시된 배점을 참고하시오. 3점 문항에만 점수가 표시되어 있습니다. 점수 표시가 없는 문항은 모두 2점입니다.

1. 밑줄 친 내용과 관련된 우리나라 위치의 특징으로 옳은 것은?

> 코레아라 부르고 주민들이 조선국(Tyocen-koeck)이라 부르는 이 나라는 북위 34도 반에서 44도 사이에 위치하며 남북의 길이는 140~150마일, 동서의 폭은 70~75마일이다. 조선은 여러 군데 소규모 반도가 있다.
>
> – 하멜, 『조선왕국기』 –

① 대륙 서안보다 연교차가 크다.
② 동아시아의 항공 교통 중심지이다.
③ 대륙과 해양으로 진출하기 유리하다.
④ 계절풍의 영향으로 벼농사에 유리하다.
⑤ 4계절이 뚜렷한 냉·온대 기후가 나타난다.

2. 블로그 게시판에 학생들이 쓴 댓글 중 옳지 않은 것은? [3점]

글쓰기 댓글 목록 ▲윗글 ▼아랫글

♣ 대동여지도에 대해 이야기해 봅시다.

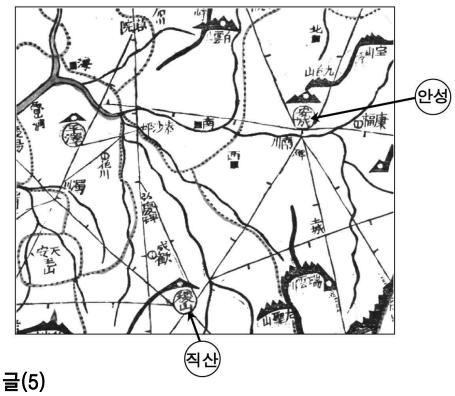

댓글(5)

↳ 갑 : 산의 높이를 정확히 알 수 있어.
↳ 을 : 안성과 직산의 실제 직선거리는 30리 정도야.
↳ 병 : 봉수, 도로, 역참 등을 기호로 표시했어.
↳ 정 : 접을 수 있어 휴대가 간편해.
↳ 무 : 목판본이라서 여러 장을 찍을 수 있어.

① 갑 ② 을 ③ 병 ④ 정 ⑤ 무

3. 지형도에 대한 분석으로 옳은 것을 <보기>에서 고른 것은? [3점]

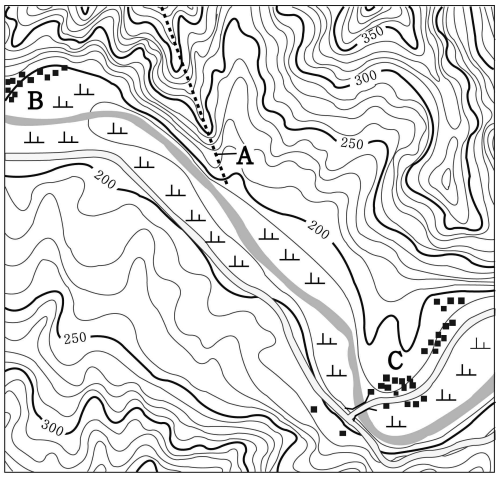

<보 기>

ㄱ. 지도의 축척은 1:50,000이다.
ㄴ. A 등산로는 능선을 따라 이어진다.
ㄷ. B 마을은 C 마을의 북서쪽에 위치한다.
ㄹ. 하천은 C 마을에서 B 마을 쪽으로 흐른다.

① ㄱ, ㄴ ② ㄱ, ㄷ ③ ㄴ, ㄷ ④ ㄴ, ㄹ ⑤ ㄷ, ㄹ

4. 사진의 섬에 대한 설명으로 옳지 않은 것은?

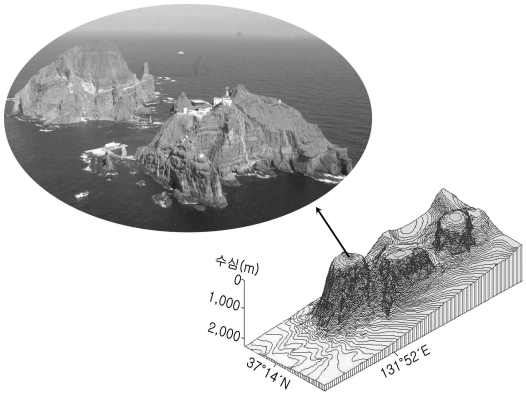

① 화산 활동에 의해 형성되었다.
② 우리나라의 동쪽 끝에 위치한다.
③ 인근 해역에 조경 수역이 형성된다.
④ 영해의 기준으로 통상 기선이 적용된다.
⑤ 조석간만의 차가 커서 조력발전에 유리하다.

5. 지도에 ● 표시된 지역의 기후 환경을 반영한 가옥으로 옳은 것은?

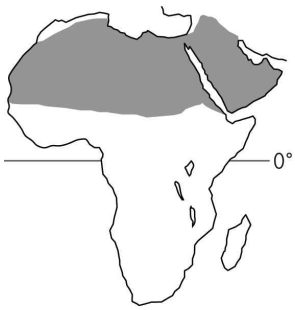

①

②

③

④

⑤

6. 어느 도시의 기후 그래프이다. 이 도시에서 나타나는 기후 특성에 해당하는 것을 그림의 ㄱ~ㅁ에서 고른 것은? [3점]

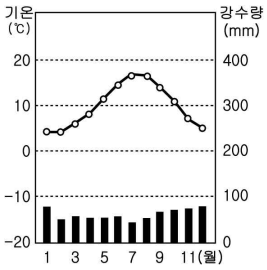

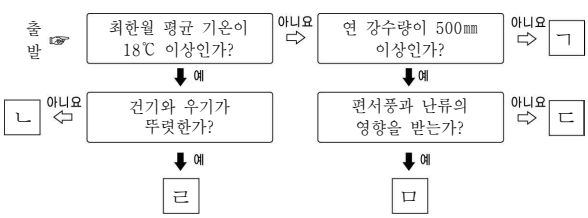

① ㄱ ② ㄴ ③ ㄷ ④ ㄹ ⑤ ㅁ

7. 지도는 방언을 기준으로 지역을 구분한 것이다. 지도와 같은 지역 유형의 예로 옳지 않은 것은? [3점]

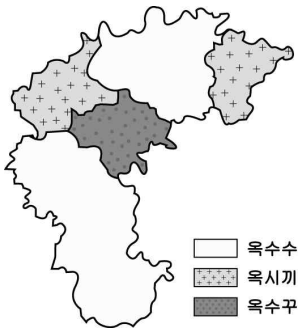

<충청북도 옥수수 방언 분포도>

① 벼농사 지역 ② 유교 문화권
③ 대도시 통근권 ④ 개발 제한 구역
⑤ 온대 기후 지역

8. 조카가 삼촌에게 보낸 편지의 일부이다. 조카가 사는 지역의 특성으로 옳지 않은 것은? [3점]


보고 싶은 삼촌께
잘 지내고 계시지요?
HAPPY700
한 달 전 이사 온 이곳은 해발 700m 지점에 위치하고 있지만,
지형이 평탄하여 독특한 자연경관을 볼 수 있어요.
(중략)
이번에 우리 군이 2018년 제23회 동계
올림픽 개최지로 선정되었어요.
꼭 한번 놀러 오세요.
2012년 1월 21일
조카 OO 올림

① 겨울에는 스키장으로 이용된다.
② 바람이 강하여 풍력발전에 유리하다.
③ 지형이 평탄하여 벼농사가 발달한다.
④ 초지가 발달하여 목축업에 유리하다.
⑤ 여름에 서늘하여 고랭지 농업이 발달한다.

9. 그림은 해안에 접근하는 파랑의 진행 방향을 나타낸 것이다. ⬭ 해안에 발달하는 지형을 <보기>에서 고른 것은?

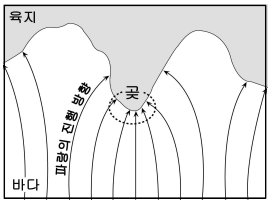

<보 기>
ㄱ. 사빈 ㄴ. 해식애
ㄷ. 간석지 ㄹ. 시 스택

① ㄱ, ㄴ ② ㄱ, ㄷ ③ ㄴ, ㄷ ④ ㄴ, ㄹ ⑤ ㄷ, ㄹ

10. (가), (나) 산지의 특징으로 옳은 것은?

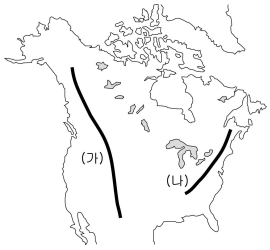

① (가)는 습곡 작용에 의해 형성되었다.
② (나)는 지진과 화산 활동이 빈번하다.
③ (가)는 (나)보다 지형 형성 시기가 빠르다.
④ (가)에는 철광석, (나)에는 석유가 주로 매장되어 있다.
⑤ (나)는 (가)보다 평균 해발 고도가 높고 경사가 급하다.

11. (가)의 A 지역에서 기온이 (나) 그래프와 같이 변화할 때, A 지역에서 새벽에 발생할 수 있는 기상 현상으로 가장 적절한 것은? [3점]

(가)

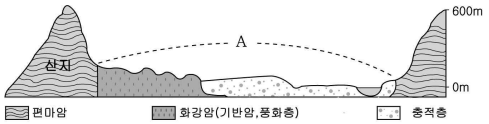

(나)

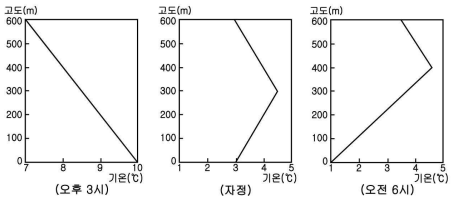

① 안개 ② 강풍 ③ 우박
④ 열대야 ⑤ 소나기

12. (가), (나) 도시의 기온 그래프를 보고 두 도시의 특징에 대한 옳은 설명을 <보기>에서 고른 것은?

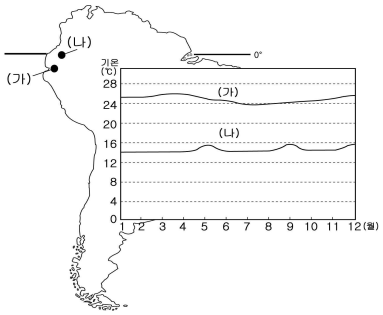

< 보 기 >
ㄱ. (가)에서 열대작물인 카카오를 재배한다.
ㄴ. (나)는 온대 기후 지역이다.
ㄷ. (가)는 (나)보다 해발 고도가 낮다.
ㄹ. (나)는 (가)보다 연평균 기온이 높다.

① ㄱ, ㄴ ② ㄱ, ㄷ ③ ㄴ, ㄷ ④ ㄴ, ㄹ ⑤ ㄷ, ㄹ

13. 밑줄 친 (가)에 들어갈 내용으로 가장 적절한 것은?

<남아프리카 줄루 족의 촌락>

남아프리카 줄루 족의 촌락은 가옥들이 마을 중앙에 위치한 축사를 원형으로 둘러싸고 있다. 동부 유럽의 경우에는 마을 중앙에 축사 대신 교회, 공공시설이 위치한다. 이러한 촌락 형태가 형성된 공통 원인은 _____(가)_____

① 용수를 쉽게 구할 수 있기 때문이다.
② 혈연적 유대감을 강화하기 위해서이다.
③ 경지가 협소한 산간 지역이기 때문이다.
④ 외부 세력의 침입을 방어하기 위해서이다.
⑤ 넓은 경지를 효율적으로 관리하기 위해서이다.

14. 어느 도시의 상주 인구 밀도 곡선이 $t_1 \rightarrow t_2 \rightarrow t_3$ 시기별로 변화할 때, 도심에서 감소할 수 있는 것을 <보기>에서 고른 것은? [3점]

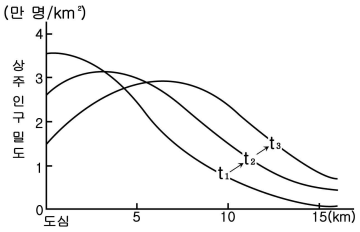

<보 기>
ㄱ. 지가 ㄴ. 주택 수
ㄷ. 주간 인구 ㄹ. 초등학교 수

① ㄱ, ㄴ ② ㄱ, ㄷ ③ ㄴ, ㄷ ④ ㄴ, ㄹ ⑤ ㄷ, ㄹ

15. 백화점과 비교한 편의점의 상대적 특징에 해당하는 것을 그림의 A~E에서 고른 것은? [3점]

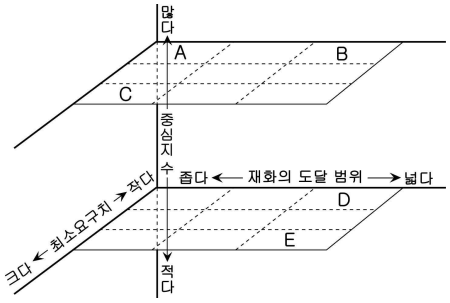

① A ② B ③ C ④ D ⑤ E

16. A, B 도시화 곡선을 분석한 것으로 옳은 것은? [3점]

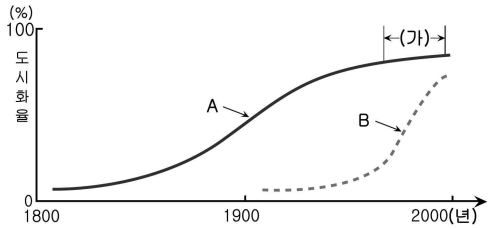

① A는 (가) 구간에서 이촌향도 현상이 가속화되었다.
② A와 B의 도시화율 격차가 커지고 있다.
③ A는 개발도상국, B는 선진국에 해당한다.
④ B는 A보다 도시화가 먼저 시작되었다.
⑤ B는 A보다 짧은 기간에 도시화가 진행되었다.

17. 신문기사와 관련하여 장소 마케팅에 대한 설명으로 옳지 않은 것은?

○○ 신 문 2011년 12월 22일

'특색 있는 마을' 선정

△△치즈마을이 전국에서 가장 특색 있는 마을로 선정되었다. 치즈를 주제로 한 애플피자 만들기와 낙농 체험 등 차별화된 프로그램을 다양하게 개발하였다.

◇◇마을은 주민들의 적극적인 참여로 동족촌 문화유산을 관광자원화 하였다.

① 관광객의 수를 증가시킨다.
② 주민들의 소득을 향상시킨다.
③ 지역 이미지 창출에 기여한다.
④ 중앙 정부의 주도로 이루어진다.
⑤ 지역의 고유한 특성을 활용한다.

18. 두 기업의 공장 이전에 관한 자료이다. 이러한 현상이 나타나게 된 공통 요인으로 가장 적절한 것은?

○○ 봉제 공장 이전

△△ 신발 공장 이전

- 1960년 미국 본사 설립
- 1960년대 일본으로 공장 이전
- 1970년대 한국, 타이완으로 공장 이전
- 1980년대 타이, 인도네시아로 공장 이전

① 선진 기술 습득 ② 소비 시장 위축
③ 무역 장벽 극복 ④ 값싼 노동력 확보
⑤ 쾌적한 기후 환경

19. (가), (나) 시기의 제철 공업 입지 유형에 해당하는 운송비 그래프를 <보기>에서 찾아 바르게 연결한 것은? [3점]

(가) 1700년대 이전 제철 공업은 지표 부근에서 쉽게 철광석을 얻을 수 있고, 숯으로 사용할 나무가 풍부한 곳에 입지하였다.
(나) 1950년대 이후 채굴 가능한 철광석과 석탄이 고갈되었기 때문에 제철에 필요한 원료를 수입하기 유리한 곳에 입지하였다.

<보 기>

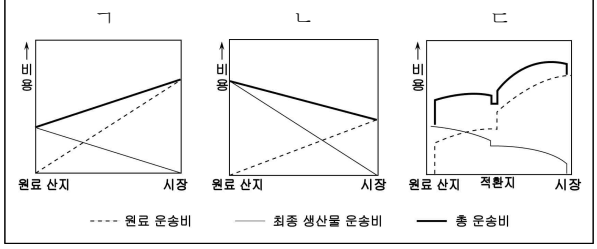

	(가)	(나)		(가)	(나)
①	ㄱ	ㄴ	②	ㄱ	ㄷ
③	ㄴ	ㄱ	④	ㄴ	ㄷ
⑤	ㄷ	ㄴ			

20. 환경 문제에 대한 수업 장면이다. 교사의 질문에 옳지 않은 대답을 한 학생은?



교사 : 기후 현상에 대한 공익광고 포스터입니다. 우리의 지구가 뜨거워지고 있죠. 이와 같은 현상이 지속될 때 지구에는 어떤 변화가 나타날까요?

갑 : 북극해 빙하의 면적이 축소될 것입니다.
을 : 열대림의 분포 지역이 확대될 것입니다.
병 : 오존층 파괴로 피부암 발병이 증가할 것입니다.
정 : 말라리아와 같은 열대성 질병이 증가할 것입니다.
무 : 해수면 상승으로 해안 저지대가 침수될 것입니다.

① 갑 ② 을 ③ 병 ④ 정 ⑤ 무

※ 확인 사항
- 답안지의 해당란에 필요한 내용을 정확히 기입(표기)했는지 확인하시오.

2012학년도 3월 고2 전국연합학력평가 문제지

제 4 교시 사회탐구 영역 (일반사회)

성명		수험 번호						2				

◦ 자신이 선택한 과목의 문제지인지 확인하시오.
◦ 문제지의 해당란에 성명과 수험 번호를 정확히 쓰시오.
◦ 답안지의 해당란에 성명과 수험 번호를 쓰고, 또 수험 번호와 답을 정확히 표시하시오.
◦ 문항에 따라 배점이 다르니, 각 물음의 끝에 표시된 배점을 참고하시오. 3점 문항에만 점수가 표시되어 있습니다. 점수 표시가 없는 문항은 모두 2점입니다.

1. 그림은 일반적으로 나타나는 정치문화의 분포 현황이다. (가)~(다)의 정치문화 성향을 보이는 학생들을 바르게 연결한 것은?

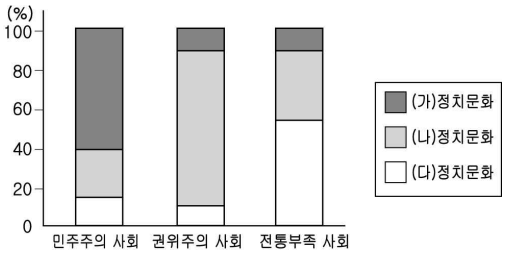

교사 : 학급 반장을 어떻게 뽑을까요?
갑 : 당연히 선생님께서 임명하셔야죠. 그러면 저희들이 따를게요.
을 : 우리 반 학생들의 의견이 모두 반영되는 선거를 통해 결정하는 것이 좋을 것 같아요.
병 : 학급 반장을 어떻게 뽑더라도 관심 없어요. 그냥 공부만 열심히 할래요.

	(가)	(나)	(다)
①	갑	을	병
②	을	갑	병
③	을	병	갑
④	병	갑	을
⑤	병	을	갑

2. 자료를 보고 각 국의 경제 상황을 분석한 내용으로 옳은 것은? [3점]

<여러 나라의 경제 성장률>

(단위: %)

구분	2006년	2007년	2008년
A국	2.3	1.9	−0.7
B국	3.3	2.4	1.1
C국	11.1	11.9	9.8

① A국은 2008년 경제 규모가 전년에 비해 줄어들었다.
② B국은 2006년부터 지속적으로 경제 규모가 줄어들었다.
③ C국 국민의 평균적인 생활수준이 가장 높다.
④ 2006년에는 A국이 B국보다 경제 성장의 속도가 빠르다.
⑤ 경제 규모는 A국이 가장 작고, C국이 가장 크다.

3. 그림은 65세 이상 인구 및 구성비 추이를 나타낸 것이다. 이에 따른 문제점과 해결책을 바르게 연결한 것은? [3점]

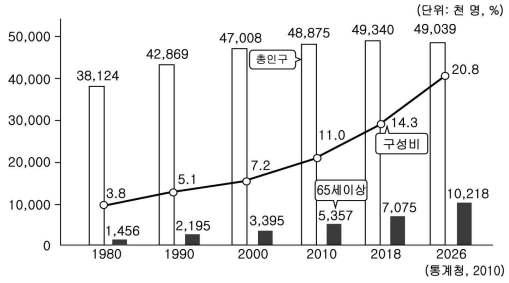

	문제점	해결책
①	인구의 고령화	실버 산업에 대한 투자 축소
②	노인 부양 부담의 가중	가정의 노인 부양 기능 전담
③	노인들의 일자리 수요 증가	공공 근로를 통한 인력 활용
④	노인들의 정치적 영향력 약화	복지 정책에 대한 예산 확대
⑤	노동력 감소로 인한 실업 증가	출산 장려 정책의 적극적 시행

4. 표는 갑국과 을국의 노동자 1명이 일정한 생산비를 투입하여 X재만을 생산하거나 Y재만을 생산하는 경우의 최대생산량을 나타낸 것이다. 이에 대한 설명으로 옳은 것은? (단, 다른 조건은 일정하다.)

(단위: 개)

구분	X재	Y재
갑국	8	10
을국	6	5

① 갑국은 X재, 을국은 Y재에 절대 우위가 있다.
② 갑국은 Y재, 을국은 X재에 특화하는 것이 유리하다.
③ 을국은 갑국보다 Y재를 두 배 더 효율적으로 생산한다.
④ 을국의 X재 1단위 생산에 대한 기회비용은 Y재 6/5단위이다.
⑤ 특화 상품을 생산하여 교역 시 갑국에 비해 을국의 이익이 작다.

5. 다음 글에 나타난 사회 변동에 대한 설명으로 옳지 않은 것은?

○○군 ◇◇초등학교는 학생 10명 중 1명이 다문화 가정의 자녀인 것으로 나타났다. △△경제연구소는 2020년에는 국내 체류 외국인 수가 인구의 약 5%가 될 것으로 추정하며, 20세 이하 연령층에서 5명 중 1명은 다문화 가정의 자녀가 될 것으로 전망했다.

① 여러 문화를 경험할 수 있는 기회가 늘어난다.
② 다문화 가정을 위한 국가적 차원의 대책이 필요하다.
③ 다양한 문화 요소가 섞여 사회의 안정과 통합에 기여한다.
④ 다문화 가정의 자녀에게 정체성 혼란 문제가 나타날 수 있다.
⑤ 이주자들의 문화를 차별과 편견 없이 수용하는 자세가 필요하다.

6. 다음과 같은 현상이 지속될 경우, 우리나라 외환 시장의 균형점 E가 이동할 가능성이 높은 방향은? (단, 다른 조건은 일정하다.)

> ○ '선진 교육 서비스에 대한 열망', '세계화 시대에 걸맞은 창의적 인재 육성' 등의 이유로 우리나라 학생들의 미국 유학 열풍이 불고 있다.
> ○ 아시아를 넘어서 미국까지 뻗어나간 K-POP에 대한 외국인의 한류 열풍과 더불어 한국 대중 스타들의 미국 공연이 줄을 잇고, 한국에서 제작한 영화와 TV 드라마의 미국 수출이 크게 늘어나고 있다.

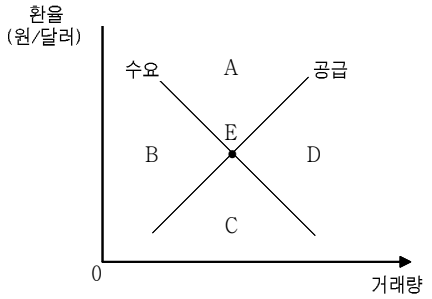

① A ② B
③ C ④ D
⑤ 이동하지 않음

7. 다음 글에 대한 옳은 설명만을 <보기>에서 있는 대로 고른 것은?

> 재미슨(Jamieson)과 토마스(Thomas)는 자신의 관심사와 타인의 관심사 중 어떤 쪽이 충족되었는지에 따라 갈등해결 모형을 경쟁·회피·협력·타협·동조 다섯 가지의 모델로 분류한다. 내가 이기는 경쟁, 그냥 내버려두는 회피, 나와 상대방의 관심이 모두 충족되는 협력, 상호 희생하는 타협, 내가 양보하는 동조 이렇게 다섯 가지 방식이다. …(중략)… 안전과 지역 발전에 관해서는 방사성폐기물관리공단과 국민적 관심사가 정확히 일치하기 때문에 이와 관련한 갈등은 항상 협력이 될 것이다. 공사 기간 지연으로 안전성 논란이 제기됐을 때, 방사성폐기물관리공단이 지질학회뿐 아니라 지역 공동체가 선임한 조사단의 안전성 검증을 수용한 것과 지역 주민에 대한 20% 채용 목표제를 시행한 것도 협력의 좋은 사례이다.

<보 기>

ㄱ. 사회 갈등으로 인한 사회적 비용이 지속적으로 증가함을 보여준다.
ㄴ. 사회 갈등 해결을 위한 협상 방법 중 윈윈(win-win)게임의 사례이다.
ㄷ. 사회 갈등의 해결을 위해서는 항상 제도적 측면이 우선시 되어야 함을 보여준다.
ㄹ. 사회 갈등도 사회 발전을 위한 합의를 이루어 가는 하나의 과정으로 이해될 수 있는 사례이다.

① ㄱ, ㄴ ② ㄱ, ㄷ ③ ㄴ, ㄹ
④ ㄱ, ㄷ, ㄹ ⑤ ㄴ, ㄷ, ㄹ

8. (가), (나)는 문화 변동과 관련된 사례이다. 이에 대한 설명으로 옳은 것은? [3점]

> (가) 아메리카에 도착한 백인은 그 땅이 엄청난 자원의 보고라는 것을 알고, 인디언에게 생활필수품과 몇 자루의 총만을 주고 드넓은 땅을 야금야금 빼앗았다. 백인들의 삶의 방식을 강요받은 인디언들은 그들의 땅에서 쫓겨났고, 그들의 문화 또한 점차 역사 속으로 사라졌다.
> (나) 중국 옌볜에 거주하는 조선족은 중국어를 사용하고 중국 문화 속에 살아가지만, 여전히 한글을 사용하며 설과 추석을 즐긴다. 그리고 한복을 입고 온돌을 사용할 뿐만 아니라, 김치를 먹으며 생활하고 있다.

① (가)의 문화 변동은 내부적 원인에 의해 나타났다.
② (가)에서 백인들은 문화 상대주의적 태도를 지니고 있다.
③ (나)의 조선족은 문화 지체를 경험하고 있다.
④ (나)의 문화 변동은 간접 전파에 의해 나타났다.
⑤ (가)는 문화 동화, (나)는 문화 공존에 해당한다.

9. '사형제도 존폐론'에 대한 토론 내용이다. (가)에 들어갈 내용으로 적절하지 <u>않은</u> 것은?

> 갑: 사형제도가 없다면 반인륜적인 범죄가 더욱 증가하고, 법에 대한 불신을 초래 할 것입니다.
> 을: 아무리 극악한 범죄를 저질렀어도 국가가 인간의 생명권을 박탈할 수는 없다고 생각합니다. 그리고, ___(가)___

① 사형제도는 인권의 본질적 내용을 침해하는 것입니다.
② 사형제도는 다른 어떤 형벌보다 범죄 예방 효과가 큽니다.
③ 형벌은 범인에 대한 처벌보다 교화에 목적을 두어야 합니다.
④ 법관도 사람이기 때문에 잘못된 판단을 할 가능성이 있습니다.
⑤ 사형제도는 집권자에 의해 정치적으로 악용될 소지가 있습니다.

10. 다음 글을 통해 추론할 수 있는 국제 경제의 양상으로 가장 적절한 것은?

> 미국 정부가 금융위기 해결을 위한 최후의 수단으로 내놓은 7천억 달러 구제금융 법안이 29일 하원 표결에서 충격적으로 부결되었다. 하원의 법안 부결 소식이 전해지자, 이날 미국 증시는 777.68포인트 폭락하며 '검은 월요일'이 재현되었다. 2001년 9·11 테러 당시의 684포인트 하락보다도 낙폭이 컸다. 30일 한국과 홍콩 등의 아시아 증시도 개장하자마자 일제히 급락하였고, 세계 금융시장은 대공황 상태에 빠졌다.
>
> * 검은 월요일: 1987.10.19(월) 뉴욕증권시장에서 일어났던 주가 대폭락 사건

① 국가 간 상호 의존성이 심화되고 있다.
② 전자 상거래가 더욱 활성화되고 있다.
③ 국가의 역할보다 기업의 중요성이 커지고 있다.
④ 국제 교역의 대상이 특정 국가로 한정되고 있다.
⑤ 선진국 중심의 신보호주의 경향이 심화되고 있다.

11. 그림에서 문제를 정확히 풀었다면 도착하게 될 지점은?

문제1	원/달러 환율 상승은 원화 가치의 하락을 의미한다.
문제2	내국인의 해외여행이 증가하면 외화 공급은 증가한다.
문제3	환율이 상승하면 수출 상품의 외화 표시 가격이 상승한다.
문제4	외화의 수요와 공급에 의해 환율이 결정되는 제도는 변동 환율제이다.
문제5	외국으로부터 차관을 많이 도입하면 경상수지가 적자라도 국제수지는 흑자가 될 수 있다.

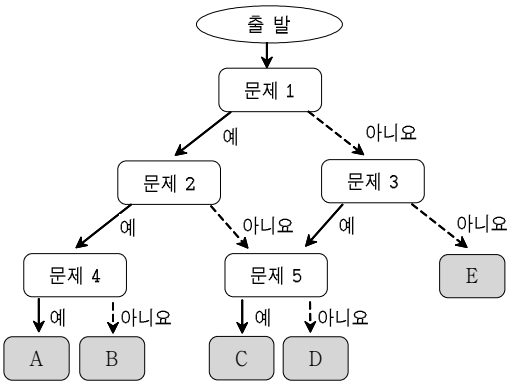

① A ② B ③ C ④ D ⑤ E

12. 다음 글에 대한 옳은 설명을 <보기>에서 고른 것은? [3점]

서구 선진국은 제2차 세계대전이 끝난 이후, 1950년대부터 빠른 경제 성장과 함께 전 계층에 걸쳐 실질소득이 크게 증가했다. 그러나 서구 사람들이 느끼는 행복도는 60년대 후반 이후 오히려 더 떨어졌다. 실제로 미국에서 일반 국민을 대상으로 행복한지를 묻는 질문에 '행복하다'고 대답한 비율이 50년대 70%대에서 60년대까지는 90% 이상으로 증가하다가 2000년대에 와서는 60% 아래로 떨어졌다. 『미국의 역설』이라는 책을 쓴 데이비드 마이어스 교수는 소득이 증가함에도 행복도가 떨어진 시기에 다양한 사회지표들이 악화된 것을 보여준다. 이혼율 2배, 10대 자살률 3배, 폭력범죄가 4배 늘었으며, 수감된 죄수의 수도 5배 늘었다. 우울증은 제2차 세계대전 이전에 비해 오히려 10배나 늘었다고 한다.

<보 기>

ㄱ. 경제 성장과 삶의 질은 항상 일치한다.
ㄴ. 경제 성장과 행복도는 역(逆)의 상관관계에 있다.
ㄷ. 국민들의 행복감은 다양한 요인에 의해 결정된다.
ㄹ. 국내 총생산은 삶의 질을 측정하는 최적의 지표가 될 수 없다.

① ㄱ, ㄴ ② ㄱ, ㄷ ③ ㄴ, ㄷ ④ ㄴ, ㄹ ⑤ ㄷ, ㄹ

13. (가), (나)에 대한 학생의 발표 중 옳지 <u>않은</u> 것은?

◀ 경제 학습지 ▶

※ 실업과 경제 생활

15세 이상 인구		
경제 활동 인구		(나)
취업자	(가)	

① 갑: 6개월 간 일자리를 찾아다니는 사람은 (가)의 사례에 해당해요.
② 을: 신입사원 채용 결과를 기다리는 대졸자는 (가)의 사례에 해당해요.
③ 병: 3년째 공부를 하고 있는 고시생은 (나)의 사례에 해당해요.
④ 정: 직장을 바꾸기 위해 회사에 사표를 낸 사람은 (나)의 사례에 해당해요.
⑤ 무: (가)는 실업자, (나)는 비경제 활동 인구이에요.

14. 교사의 설명을 듣고 학생들이 나눈 대화 중 옳은 것을 <보기>에서 고른 것은? [3점]

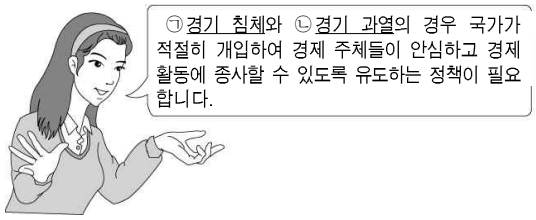

<보 기>

갑: ㉠이 장기화되면 실업이 증가할 수 있어.
을: ㉠의 경우 세입을 확대하고, 세출을 축소해야 돼.
병: ㉡으로 인해 인플레이션이 발생할 수 있어.
정: ㉡의 경우 기준금리를 인하하여 통화량을 증가시켜야 해.

① 갑, 을 ② 갑, 병 ③ 을, 병 ④ 을, 정 ⑤ 병, 정

15. 다음 헌법의 내용이 공통으로 보장하는 기본권에 대한 옳은 진술을 <보기>에서 고른 것은? [3점]

○ 체포, 구속, 압수 또는 수색을 할 때에는 적법한 절차에 따라 검사의 신청에 의하여 법관이 발부한 영장을 제시하여야 한다.
○ 누구든지 체포 또는 구속의 이유와 변호인의 조력을 받을 권리가 있음을 고지받지 아니하고는 체포 또는 구속을 당하지 아니한다.

<보 기>

ㄱ. 기본권 보장을 위한 기본권이다.
ㄴ. '국가로부터의 자유'를 의미한다.
ㄷ. 현대 복지 국가 헌법에서 새롭게 등장하였다.
ㄹ. 죄형법정주의는 이 기본권을 보장하기 위한 제도이다.

① ㄱ, ㄴ ② ㄱ, ㄷ ③ ㄴ, ㄷ ④ ㄴ, ㄹ ⑤ ㄷ, ㄹ

16. 다음 제도를 실시하여 기대할 수 있는 효과로 옳은 것을 <보기>에서 고른 것은? [3점]



<보 기>

ㄱ. 국민의 보편적 정서를 반영한 판결이 이루어진다.
ㄴ. 국민의 참여로 사법(司法)의 신뢰성을 제고할 수 있다.
ㄷ. 재판 과정에서 시간과 비용이 절약되어 효율성을 높인다.
ㄹ. 재판의 전문성을 높여 공정하고 민주적인 재판이 될 수 있다.

① ㄱ, ㄴ ② ㄱ, ㄷ ③ ㄴ, ㄷ ④ ㄴ, ㄹ ⑤ ㄷ, ㄹ

17. 그림의 (가)~(다)에 대한 설명으로 옳은 것은? [3점]

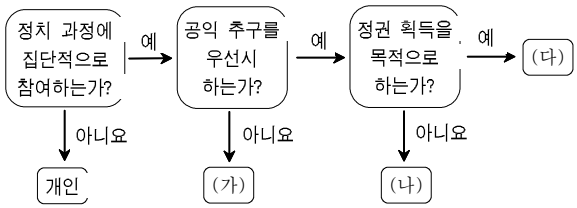

① (가)는 정치 과정에 공식적으로 참여한다.
② (나)는 선거에서 특정 후보자를 공천할 수 있다.
③ (다)는 특수한 영역의 문제에만 관심을 갖는다.
④ (나)는 (가)와 달리 구성원의 배타적 이익을 중시한다.
⑤ (다)는 지지 기반을 넓히기 위해 (가)와 연계하기도 한다.

18. 다음과 같은 제도를 두는 이유로 옳은 것만을 <보기>에서 있는 대로 고른 것은? [3점]

헌법 제53조는, 국회에서 의결된 법률안은 정부로 이송되어 15일 이내에 대통령이 공포하고 법률안에 이의가 있을 때는 대통령이 15일 이내에 이의서를 붙여 국회로 돌려보내며, 다시 의결을 요구할 수 있다고 규정하고 있다. 이 경우 국회는 반드시 이를 본회의에 상정해야 하며, '재적의원 과반수 출석과 출석의원 3분의 2 이상 찬성'으로 의결된다.

<보 기>

ㄱ. 입법부의 행정부 견제
ㄴ. 국회 다수당의 횡포 가능성 견제
ㄷ. 헌법에 위배되는 법률의 제정 방지
ㄹ. 권력 분립을 통한 국민의 기본권 보장

① ㄱ, ㄴ ② ㄱ, ㄹ ③ ㄴ, ㄷ
④ ㄱ, ㄷ, ㄹ ⑤ ㄴ, ㄷ, ㄹ

19. 정치 과정에서 (가)~(다)에 해당하는 사례를 <보기>에서 골라 바르게 연결한 것은? [3점]

<보 기>

ㄱ. 시의회에서 학원 심야 교습 제한에 관한 조례 개정안이 통과되었다.
ㄴ. 학생의 건강을 위해 학원의 심야 교습 행위를 규제해야 한다는 목소리가 크다.
ㄷ. 학원 심야 교습 제한 조치 이후 독서실에서 불법 교습이 행해져 오히려 사회의 혼란을 가중시키고 있다.

	(가)	(나)	(다)		(가)	(나)	(다)
①	ㄱ	ㄴ	ㄷ	②	ㄱ	ㄷ	ㄴ
③	ㄴ	ㄱ	ㄷ	④	ㄴ	ㄷ	ㄱ
⑤	ㄷ	ㄱ	ㄴ				

20. 다음 사례에 대한 옳은 법적 판단을 <보기>에서 고른 것은?

A광역시의 중심 지역에 위치하고 있는 교차로는 복잡하여 자주 교통 체증을 불러 일으켰다. A광역시는 교통 흐름을 원활하게 하기 위하여 법과 절차에 따라 지하차도를 건설하기 시작하였고, 지하차도 공사를 위하여 공사장 주변의 보행자 통행을 공사 기간 동안 통제하였다. 이에 따라 공사장에 바로 인접해 있는 갑의 대형가구점은 손님이 현저하게 줄어들었으며 마침내 부도 직전에 이르게 되었다.

<보 기>

ㄱ. A광역시의 행위는 위법한 행정 작용에 해당한다.
ㄴ. 갑은 A광역시를 상대로 행정상 손실 보상을 청구할 수 있다.
ㄷ. 갑은 A광역시 시장을 상대로 민사상 손해 배상을 청구할 수 있다.
ㄹ. 갑은 침해된 기본권을 구제받기 위해서 행정기관에 청원할 수 있다.

① ㄱ, ㄴ ② ㄱ, ㄷ ③ ㄴ, ㄷ ④ ㄴ, ㄹ ⑤ ㄷ, ㄹ

※ 확인 사항
◦ 답안지의 해당란에 필요한 내용을 정확히 기입(표기)했는지 확인하시오.