2007학년도 11월 고2 전국연합학력평가 문제지

사회탐구 영역(한국지리)

제 4 교시 | 성명 | | 수험번호 | | | | | | 2 | | | | | 1

- 먼저 수험생이 선택한 과목의 문제지인지 확인하시오.
- 반드시 자신이 선택한 과목의 문제지를 풀어야 합니다.
- 문제지에 성명과 수험 번호를 정확히 기입하시오.
- 답안지에 수험 번호, 선택 과목, 답을 표기할 때에는 반드시 '수험생이 지켜야 할 일'에 따라 표기하시오.
- 문항에 따라 배점이 다르니, 각 물음의 끝에 표시된 배점을 참고하시오. 3점 문항에만 점수가 표시되어 있습니다. 점수 표시가 없는 문항은 모두 2점씩입니다.

1. (가), (나)의 토양이 분포하는 지역을 지도에서 골라 바르게 짝지은 것은? [3점]

(가) 석회암이 풍화되어 형성된 토양으로 라틴어의 '붉은 장밋빛 흙'을 의미한다.
(나) 하천에 의해 운반되어 쌓인 토양으로 유기물이 풍부하고 비옥하여 농경지로 이용된다.

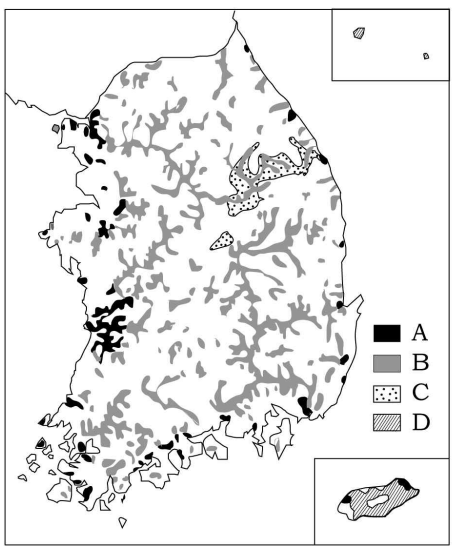

	(가)	(나)
①	A	B
②	B	C
③	C	B
④	C	D
⑤	D	A

2. 그래프는 (가)~(다) 지역의 월 평균 기온을 나타낸 것이다. 이에 대한 설명으로 적절한 것은? [3점]

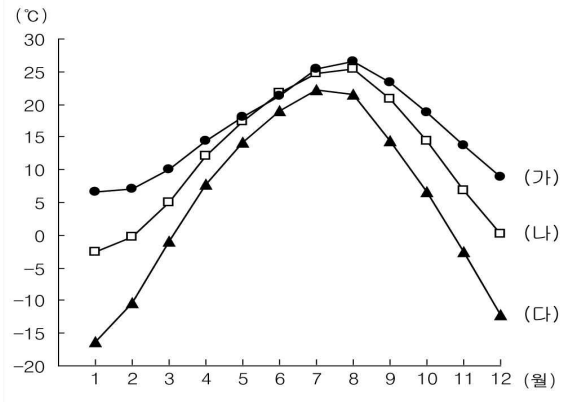

① (가)는 연교차가 커서 대륙도가 높다.
② (나)는 기후가 온난하여 난대림이 주로 분포한다.
③ (다)는 무상일수가 길어 그루갈이가 가능하다.
④ (가)는 (나)보다 단풍이 드는 시기가 빠르다.
⑤ (가)는 (다)보다 염장 식품이 발달했다.

3. 지도는 우리나라에 영향을 주는 어떤 기상 현상의 발원지에 관한 자료이다. 이 기상 현상이 우리 생활에 미치는 영향으로 적절한 것은?

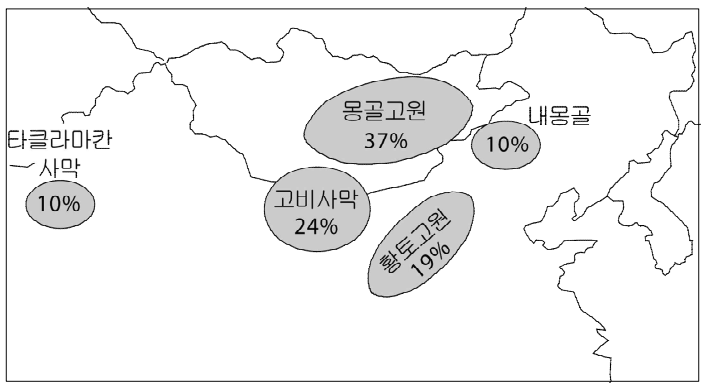

① 습기 제거제의 판매량이 증가한다.
② 높은 파랑으로 양식업에 피해가 발생한다.
③ 아침보다는 저녁에 운동하는 사람이 많아진다.
④ 반도체와 같은 정밀 제품의 불량률이 높아진다.
⑤ 용수 부족으로 지하수 개발의 필요성이 높아진다.

4. (가)의 가옥 시설과 (나)의 입지에 공통적으로 영향을 미친 기후 요소와 관련 있는 속담으로 적절한 것은?

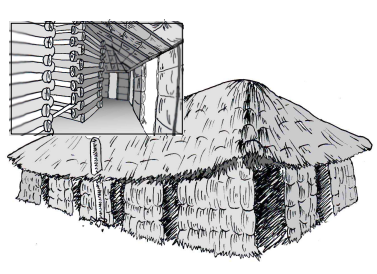

(가)



(나)

① 하늬바람이 불면 날씨가 좋다.
② 가을 무 꽁지가 길면 겨울이 춥다.
③ 장마 끝물 참외는 거저 줘도 안 먹는다.
④ 동지섣달에 북풍이 불면 병해충이 적다.
⑤ 처서가 지나면 모기도 입이 비뚤어진다.

5. A 해안의 사구가 B 해안의 사구보다 규모가 큰 이유를 탐구하고자 할 때, 조사항목으로 가장 적절한 것은?

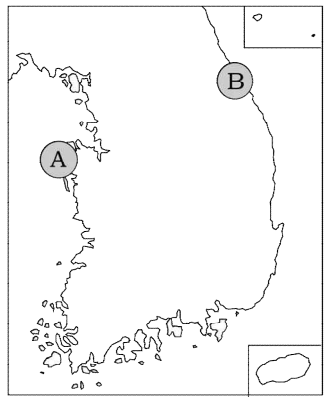

① 하천의 길이 ② 사빈의 규모 ③ 파랑의 강도
④ 조석 간만의 차 ⑤ 북서계절풍의 세기

2 사회탐구 영역(한국지리)

6. 지형도를 바르게 분석한 것은? [3점]

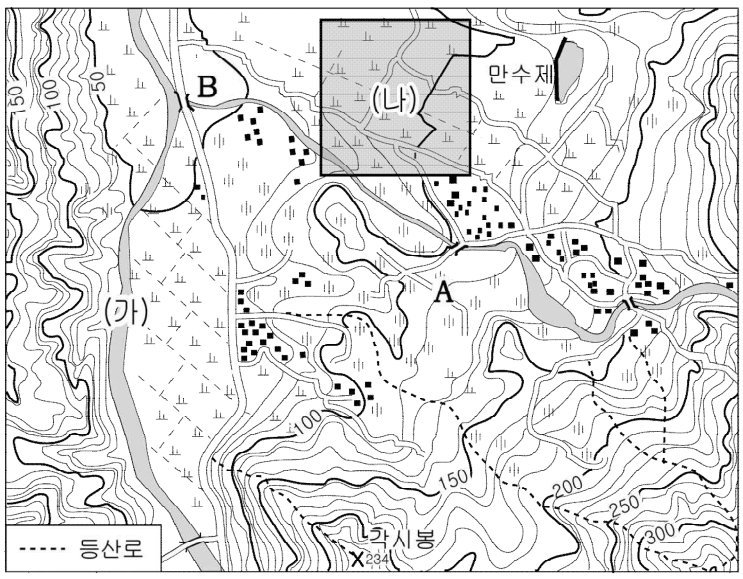

① (가) 하천은 남에서 북으로 흐른다.
② A 지역은 B 지역보다 홍수의 위험이 크다.
③ 만수제는 하천의 유로 변경으로 형성된 호수이다.
④ 각시봉을 오르는 등산로는 계곡을 따라 조성되었다.
⑤ (나) 사각형의 지도상 넓이가 4㎠라면 실제 넓이는 1㎢이다.

7. 다음 자료와 관계 깊은 지형도로 적절한 것은?

[형성 원인과 이용]

○ 하천 중·상류의 화강암 관입 지역이나 하천의 합류 지점에서 차별침식으로 형성됨

○ 비옥한 충적지가 분포하고, 방어에 유리하며, 풍수적으로도 길지에 해당되어 예로부터 도시가 발달함

[주요 분포지]

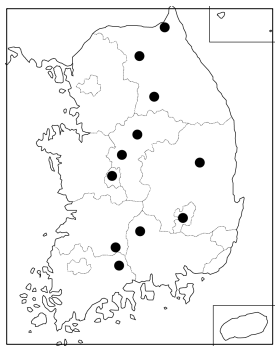

①

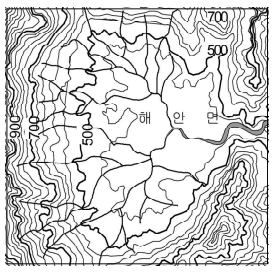

②

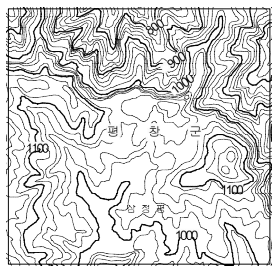

③

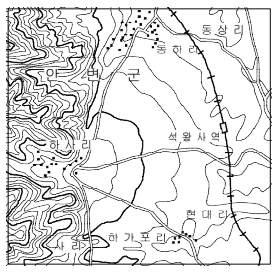

④

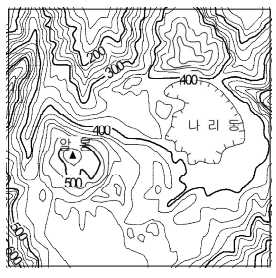

⑤

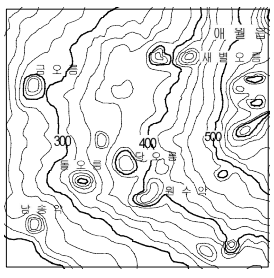

8. 지도의 A ~ D 지역에 대한 설명으로 적절하지 <u>않은</u> 것은? [3점]

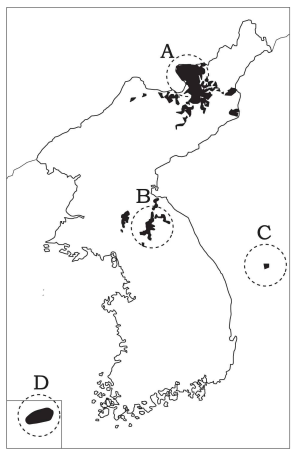

① A의 칼데라 호는 중요한 관광 자원이다.
② B는 다공질의 현무암이 분포하여 벼농사가 불가능하다.
③ C는 사면 경사가 급하여 해안 지역에 경지 발달이 미약하다.
④ D는 우리나라 최다우지이나 하천의 발달이 미약하다.
⑤ A ~ D 지형의 공통된 형성 원인은 화산 활동이다.

9. (가), (나) 하천 지형에 대한 설명으로 옳은 것을 <보기>에서 고르면?

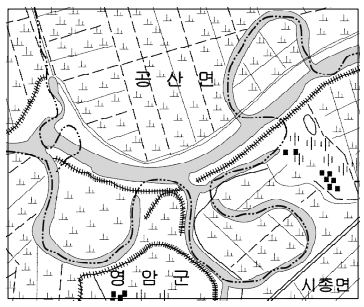

(가)

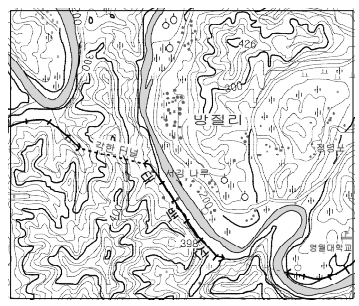

(나)

〈 보 기 〉

ㄱ. (가)는 하천 범람에 대한 대비가 필요하다.
ㄴ. (나) 주변의 취락은 주로 자연제방 상에 분포한다.
ㄷ. (가)에 비해 (나)는 상류에서 발달한다.
ㄹ. (가), (나)는 유로의 변경이 자유롭다.

① ㄱ, ㄴ ② ㄱ, ㄷ ③ ㄴ, ㄷ
④ ㄴ, ㄹ ⑤ ㄷ, ㄹ

10. 다음은 구미시의 인구구조 변화를 나타낸 것이다. A에서 A'로 변화한 원인으로 적절한 것을 <보기>에서 고르면? [3점]

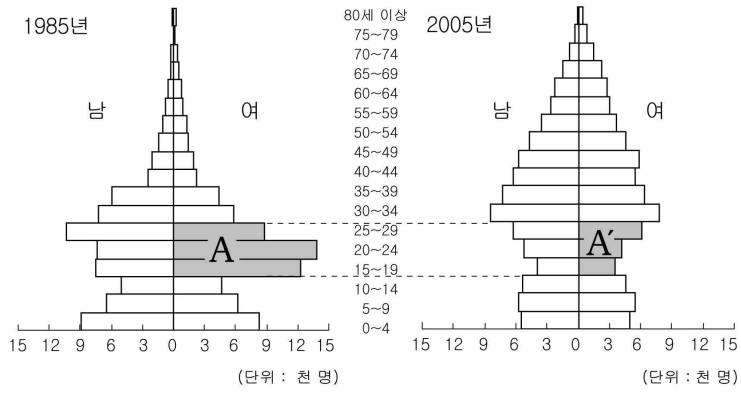

〈 보 기 〉

ㄱ. 공장의 해외 이전
ㄴ. 중공업의 비중 증가
ㄷ. 생산시설의 자동화
ㄹ. 외국인 근로자의 유입

① ㄱ, ㄴ ② ㄱ, ㄷ ③ ㄴ, ㄷ
④ ㄴ, ㄹ ⑤ ㄷ, ㄹ

11. 지도에 표시된 A, B 도시의 특성을 <보기>에서 골라 바르게 짝지은 것은? [3점]

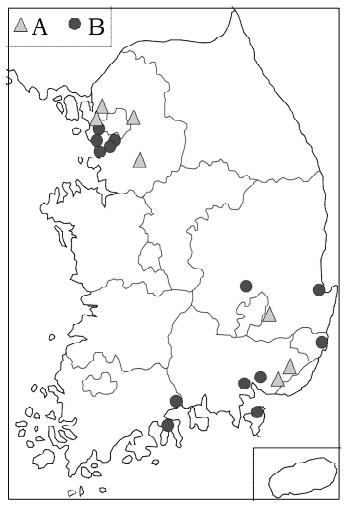

〈 보 기 〉

ㄱ. 천혜의 자연 환경을 바탕으로 성장한 관광 도시
ㄴ. 국토의 균형 발전을 위해 새롭게 선정된 기업 도시
ㄷ. 대도시의 교외화 현상으로 인해 성장한 주거 중심의 도시
ㄹ. 산업화와 더불어 공업을 기반으로 발달한 신흥 공업 도시

	A	B
①	ㄱ	ㄴ
②	ㄴ	ㄷ
③	ㄷ	ㄴ
④	ㄷ	ㄹ
⑤	ㄹ	ㄱ

12. 다음 자료를 통해 알 수 있는 우리나라 공업 구조의 특색으로 적절한 것을 <보기>에서 고르면?

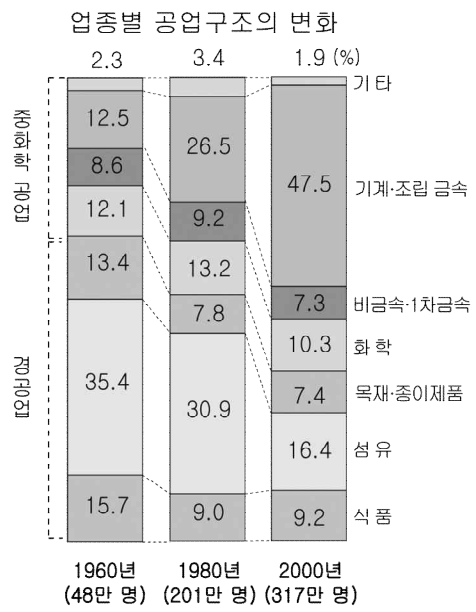

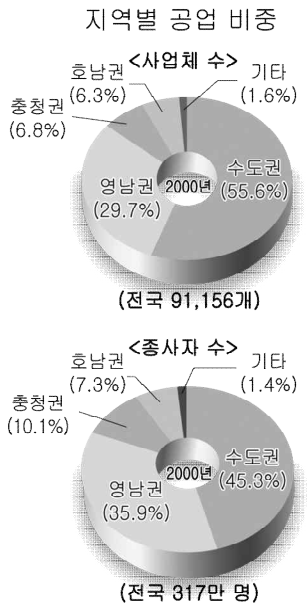

〈 보 기 〉

ㄱ. 공업의 지역적 편재 현상이 심하다.
ㄴ. 경공업 종사자 수가 지속적으로 감소하고 있다.
ㄷ. 자본집약적 공업의 비중이 점차 증가하고 있다.
ㄹ. 수도권은 다른 지역에 비해 사업체당 종사자 수가 많다.

① ㄱ, ㄴ ② ㄱ, ㄷ ③ ㄴ, ㄷ
④ ㄴ, ㄹ ⑤ ㄷ, ㄹ

13. 그래프는 1925 ~ 1955년의 우리나라 성비 변화를 나타낸 것이다. A ~ C의 각 시기별 변화의 주된 요인에 대한 설명으로 적절한 것을 <보기>에서 모두 고르면? [3점]

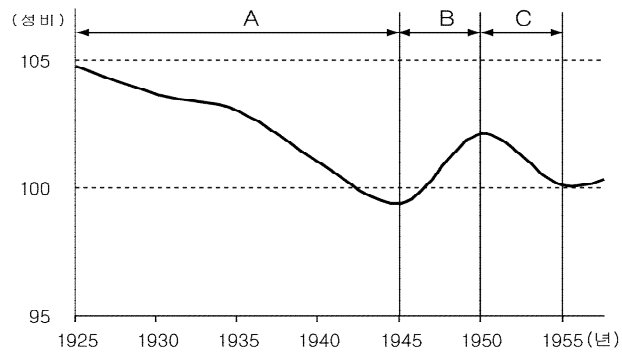

〈 보 기 〉

ㄱ. A 시기에는 여아의 출생률이 높았다.
ㄴ. B 시기에는 해외 동포가 대거 귀국하였다.
ㄷ. C 시기에는 전쟁으로 인해 남성의 사망률이 높았다.
ㄹ. A ~ C 시기의 성비 변화는 급격한 사회 변동과 관련이 있다.

① ㄱ, ㄴ ② ㄱ, ㄷ ③ ㄷ, ㄹ
④ ㄱ, ㄴ, ㄹ ⑤ ㄴ, ㄷ, ㄹ

14. (가) ~ (다) 공업에 대한 설명으로 옳은 것은? [3점]

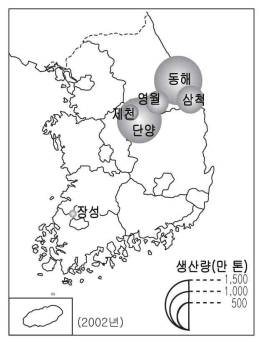

(가)

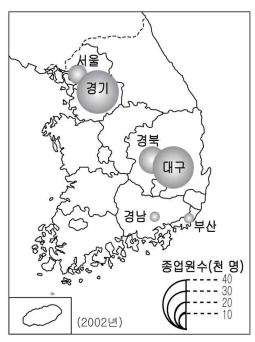

(나)

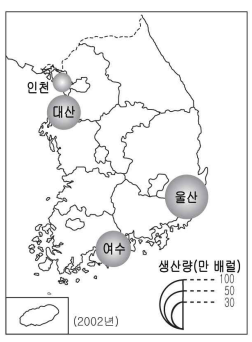

(다)

① (가)는 최근 해외로 공장을 이전하는 경우가 많다.
② (나)는 운송 중에 제품이 변질될 수 있어 시장 입지를 지향한다.
③ (다)에서 생산된 제품은 다른 산업의 원료로 이용되기도 한다.
④ (가) ~ (다)에서 원료의 해외 의존도가 가장 높은 것은 (가)이다.
⑤ (가) ~ (다)에서 원료 산지에 가장 가까이 입지하는 것은 (다)이다.

15. 그래프는 출생아 수와 출산율 추이를 나타낸 것이다. 이러한 변화에 영향을 준 요인으로 적절하지 <u>않은</u> 것은?

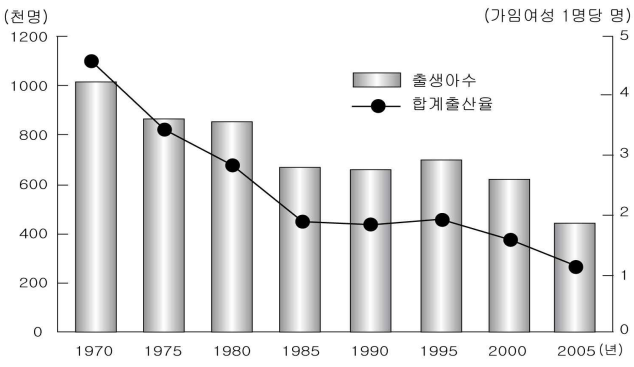

① 평균 결혼 연령의 상승
② 유아 · 초등 교육 시설의 부족
③ 여성의 경제 활동 참가율 증가
④ 육아에 대한 경제적 부담 증가
⑤ 소자녀관의 사회적 분위기 확산

4 사회탐구 영역(한국지리)

16. 다음은 제4차 국토 종합 계획 수정 계획(2006년 ~ 2020년)의 기본 틀을 나타낸 것이다. (가)에 들어갈 내용으로 적절하지 않은 것은?

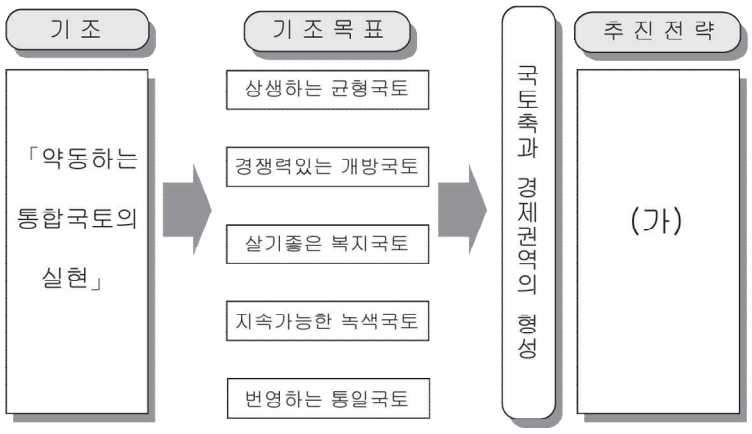

① 자립형 지역 발전 기반 구축
② 아름답고 인간적인 정주 환경 조성
③ 산업화 촉진을 위한 기반 시설 확충
④ 분권형 국토 계획 및 집행 체계 구축
⑤ 동북아 시대의 국토 경영과 통일 기반 조성

17. 다음은 수도권의 교통망 전환 계획을 모식적으로 나타낸 것이다. 예상되는 변화로 적절한 것을 <보기>에서 고르면?

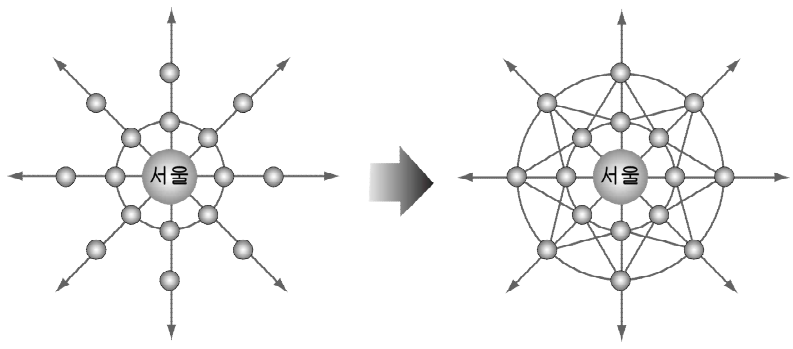

〈 보 기 〉

ㄱ. 위성도시의 인구가 감소할 것이다.
ㄴ. 지역 간 상호 작용이 강화될 것이다.
ㄷ. 수도권의 택지 가격이 하락할 것이다.
ㄹ. 서울과 연결되는 도로의 교통량이 분산될 것이다.

① ㄱ, ㄴ ② ㄱ, ㄷ ③ ㄴ, ㄷ
④ ㄴ, ㄹ ⑤ ㄷ, ㄹ

18. 승현이네 가족은 다음과 같이 테마 여행을 계획하고 있다. 여행 코스로 적절한 것을 지도에서 찾으면? [3점]

<테마 여행 계획서>

- 기간 : 2007년 ○월 ○일 ~ ○일(1박 2일)
- 주제 : 「테마형 전통 문화의 체험과 산업시설 탐방」
- 여행지 : ○○ 일대
- 주요 활동
  - 전통 한지 만들기 체험
  - 대나무 박물관 관람
  - 세계 최대의 제철소 견학

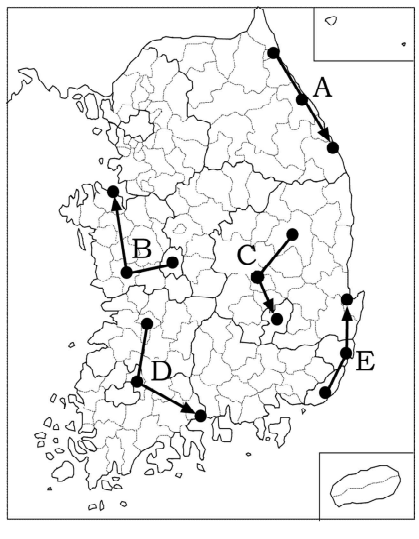

① A ② B ③ C ④ D ⑤ E

19. 그래프는 지역별 인구 비율의 변화를 나타낸 것이다. 이에 대한 분석으로 옳은 것을 <보기>에서 고르면? [3점]

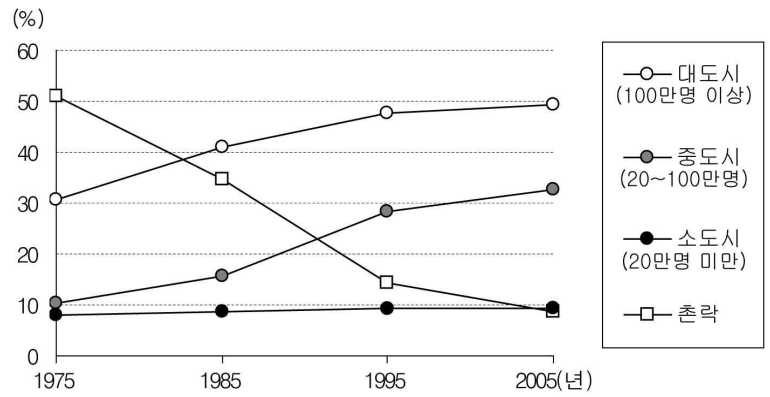

〈 보 기 〉

ㄱ. 도시화에 대한 기여는 소도시가 가장 크다.
ㄴ. 소도시와 중도시의 인구 합은 대도시보다 많다.
ㄷ. 촌락의 인구 비율이 감소한 주된 요인은 이촌향도이다.
ㄹ. 대도시와 소도시와의 인구 격차가 점차 심화되고 있다.

① ㄱ, ㄴ ② ㄱ, ㄷ ③ ㄴ, ㄷ
④ ㄴ, ㄹ ⑤ ㄷ, ㄹ

20. 다음은 유미가 어느 수력 발전 방식에 대해 조사한 것이다. (가)~(마) 중 조사 내용으로 옳지 않은 것은?

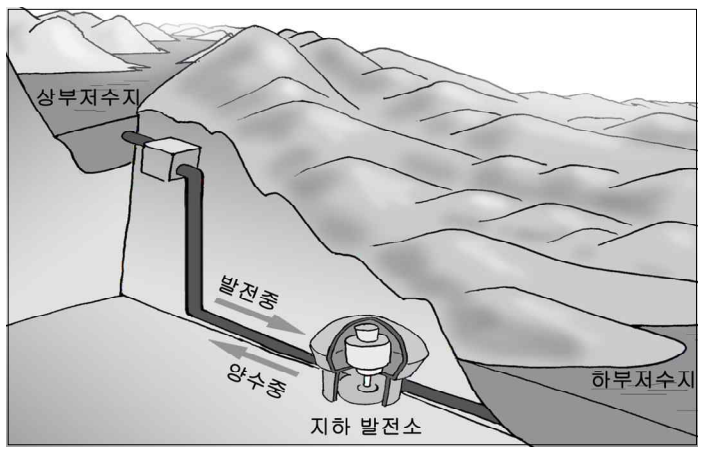

<입지>
• (가) 낙차가 큰 곳 → 경동성 지형 이용

<발전방식>
• (나) 발전에 사용된 물을 심야의 잉여전력을 활용하여 상부 저수지로 끌어올려 다시 발전에 이용함

<장점>
• (다) 최대 전력 소비 시간에 맞추어 전력 생산이 가능함
• (라) 하천의 유량이 부족한 갈수기에도 전력 생산이 가능함
• (마) 예비 전력 확보가 가능하여 전력 공급의 안정성 향상에 기여함

① (가) ② (나) ③ (다) ④ (라) ⑤ (마)

※ 확인사항

○ 문제지와 답안지의 해당란을 정확히 기입(표기)했는지 확인하시오.